令和５年度　日本史入試問題（１日目）

第１問　次の（Ⅰ）・（Ⅱ）の文章を読み、下の問い（問１～10）に答えよ。解答は各問いの下にある選択肢から一つ選べ。解答欄は［ア］～［コ］

（Ⅰ）　618年、［a］にかわり中国を統一した唐は、広域な大帝国をアジアに築き、周辺地域に大きな影響を与えた。その都の［b］は世界的な都市として発展した。日本も唐と通交するようになった。それを担ったのが[A]遣唐使であった。遣唐使は、唐の進んだ政治制度や国際的な文化を日本にもたらした。東アジアでは国家形成が進んだ。朝鮮半島は［c］により統一され、中国東北部では旧高句麗人らが［d］を建国した。日本にとって、これら東アジアの諸国との関係も外交上の重要な課題であった。

710年、［e］から平城京へと遷都された。平城京は［b］にならった都市設計がなされていた。たとえば、碁盤の目状に東西南北に走る道路で区画される［f］や、都の中央を南北に走る朱雀大路、北部中央に平城宮などがあった。平城宮跡は保存されて発掘調査がおこなわれ、発掘された大量の木簡などから当時の日常の様相も解明されてきた。平城京には官営の市が設けられ、官吏に現物支給された給与の交換がなされた。政府は708年に武蔵国から銅が献上されたことを受け、［g］を鋳造し、流通させた。

問１　空欄［a］・［b］に入る語句の組み合わせとして正しいものを、次の①～④のうちから一つ選べ。解答欄は［ア］

①　a　明　　b　長安　　②　a　明　　b　洛陽

③　a　隋　　b　長安　　④　a　隋　　b　洛陽

問２　下線部［A］に関連して、遣唐使について述べた次の文Ｘ・Ｙについて、その正誤の組み合わせとして正しいものを、下の ① ～ ④ のうちから一つ選べ。解答欄は イ

Ｘ　遣唐使は国内の政治状況にかかわらず毎年派遣された。

Ｙ　遣唐使は造船・航海技術の高さから一度も遭難しなかった。

① Ｘ　正　　Ｙ　正　　② Ｘ　正　　Ｙ　誤

③ Ｘ　誤　　Ｙ　正　　④ Ｘ　誤　　Ｙ　誤

問３　空欄 c ・ d に入る語句の組み合わせとして正しいものを、次の ① ～ ④ のうちから一つ選べ。解答欄は ウ

① c　百済　　d　渤海　　② c　百済　　d　高麗

③ c　新羅　　d　渤海　　④ c　新羅　　d　高麗

問４　空欄 e ・ f に入る語句の組み合わせとして正しいものを、次の ① ～ ④ のうちから一つ選べ。解答欄は エ

① e　藤原京　　f　条坊制　　② e　藤原京　　f　条里制

③ e　長岡京　　f　条坊制　　④ e　長岡京　　f　条里制

問５　空欄 g に入る語句として正しいものを、次の ① ～ ④ のうちから一つ選べ。解答欄は オ

① 永楽通宝　　② 和同開珎　　③ 寛永通宝　　④ 富本銭

（Ⅱ）　８世紀の初め、 h は娘の光明子を皇太子（のち聖武天皇）に嫁がせるなどして、天皇家と密接な関係を築いた。 h の没後、皇族の i が右大臣となり実権を持ったが、 h の子らの謀略により、729 年、左大臣となっていた i は自死に追い込まれた。これにより光明子は皇后に立てられた。しかし、737 年に流行した天然痘で h の子らは相次いで病死し、藤原氏の勢力は一時的に後退した。これにかわり政権をとったのが皇族出身の橘諸兄であった。740 年には九州で藤原広嗣が反乱をおこしたが鎮圧された。このような不安定な政治情勢や疫病などへの社会的不安のもと、［B］聖武天皇は仏教の力により国家の安定をはかろうとした。また経済

政策としては[C]土地に関する計画・法令を出したことが知られている。困窮した農民が口分田を捨てて行き先不明となり、調・庸を納めないなどの弊害がおきていたからであった。

聖武天皇の娘である孝謙天皇の時代には、藤原仲麻呂が政界で力をもった。橘諸兄の子の奈良麻呂は藤原仲麻呂を倒そうとしたものの、逆に滅ぼされた。仲麻呂は淳仁天皇を擁立して即位させると恵美押勝の名を賜り、政治的・経済的な力をさらに強めていった。その後、孝謙太上天皇の寵愛を受けた僧 [j] が力をもった。それに危機感を強めた恵美押勝は、764 年に挙兵したものの太上天皇側に敗れた。淳仁天皇はこれにより廃位され、孝謙太上天皇は重祚して称徳天皇となった。[j] は称徳天皇の支持を得てさらに権力を握り、仏教政治を展開した。769 年、称徳天皇は宇佐八幡宮の神託により皇位を [j] にゆずろうとしたが、和気清麻呂らの行動により失敗した。つぎの皇位には [k] 天皇が迎えられた。これにより長く続いた天武天皇の皇統にかわって天智天皇の皇統が復活した。

問６　空欄 [h] ・ [i] に入る人物の組み合わせとして正しいものを、次の①～④のうちから一つ選べ。解答欄は [カ]

① h 藤原冬嗣　i 高望王　② h 藤原冬嗣　i 長屋王

③ h 藤原不比等　i 高望王　④ h 藤原不比等　i 長屋王

問７　下線部［B］に関連して、聖武天皇の仏教政策として正しいものを、次の①～④のうちから一つ選べ。解答欄は [キ]

① 衆議尊重・仏法僧を崇拝する道徳的な訓戒を出した。

② 諸国に国分寺・国分尼寺をつくることを命じた。

③ 仏教が政治に関わることや都に新たな寺院を建てることを禁じた。

④ 加持祈禱により災いを避け、個々人の幸福を実現しようとした。

問８　下線部［C］に関連して、奈良時代の土地政策について述べた次の文Ⅰ～Ⅲを時系列順に並べたものとして正しいものを、次の ① ～ ⑥ のうちから一つ選べ。解答欄は ク

Ⅰ　墾田の私有を永年にわたって保障し、身分により墾田所有面積を制限した。

Ⅱ　人口増加による口分田不足を補うため良田100万町歩の開墾を計画した。

Ⅲ　新たな灌漑施設で未開地を開墾した場合は三世にわたる田地保有を認めた。

① Ⅰ―Ⅱ―Ⅲ　② Ⅰ―Ⅲ―Ⅱ　③ Ⅱ―Ⅰ―Ⅲ
④ Ⅱ―Ⅲ―Ⅰ　⑤ Ⅲ―Ⅰ―Ⅱ　⑥ Ⅲ―Ⅱ―Ⅰ

問９　空欄 j に入る人物として正しいものを、次の ① ～ ④ のうちから一つ選べ。解答欄は ケ

① 鑑真　② 道鏡　③ 源信　④ 空也

問10　空欄 k に入る人物として正しいものを、次の ① ～ ④ のうちから一つ選べ。解答欄は コ

① 仁徳　② 雄略　③ 持統　④ 光仁

第２問　次の（Ⅰ）・（Ⅱ）の文章を読み、下の問い（問１～10）に答えよ。解答は各問いの下にある選択肢から一つ選べ。解答欄は［ア］～［コ］

（Ⅰ）　1333年、有力御家人であった足利尊氏によって六波羅探題が滅ぼされ、同じく御家人の［a］による鎌倉攻略で、北条高時以下が自害して鎌倉幕府は滅亡した。そののち[A]後醍醐天皇を中心とする建武の新政とよばれる政治がおこなわれたが、新政に対する武士の不満が高まるなかで、足利尊氏が反旗をひるがえした。尊氏が京都を制圧したのち［b］統の光明天皇を立てると、後醍醐天皇は［c］に逃れて自らの皇位の正統性を主張した。その結果、京都の北朝と［c］の南朝の二つの朝廷が半世紀以上にわたって対立する、南北朝の動乱が全国的に広まっていった。この間には、北朝では、1338年に足利尊氏が征夷大将軍となり、弟の足利直義と幕政を担ったが、その後、尊氏と直義が対立して、最後は直義が敗北するという、いわゆる［d］の擾乱もおこった。さらに、南北朝の動乱のなかから、合戦を生き生きと描写した軍記物の［e］や、南朝の正統性を示そうとした北畠親房によってあらわされた歴史書［f］などが生まれた。

問１　空欄［a］に入る人物として正しいものを、次の①～④のうちから一つ選べ。解答欄は［ア］

①　新田義貞　　②　楠木正成　　③　高師直　　④　安達泰盛

問２　下線部［A］に関連して述べた文として正しいものを、次の①～④のうちから一つ選べ。解答欄は［イ］

①　後醍醐天皇は、摂政・関白や院による政治の復活をめざした。

②　中央に雑訴決断所を設置し、訴訟をあつかった。

③　新政の基本方針を明らかにするために、建武式目を発した。

④　諸国の守護を廃止して、国司による支配のみを認めた。

問３　空欄 b ・ c に入る語句の組み合わせとして正しいものを、次の①～④のうちから一つ選べ。解答欄は ウ

①　b　持明院　　c　吉野　　②　b　持明院　　c　隠岐

③　b　大覚寺　　c　吉野　　④　b　大覚寺　　c　隠岐

問４　空欄 d に入る語句として正しいものを、次の①～④のうちから一つ選べ。解答欄は エ

①　明徳　　②　観応　　③　永享　　④　嘉吉

問５　空欄 e ・ f に入る語句の組み合わせとして正しいものを、次の①～④のうちから一つ選べ。解答欄は オ

①　e　『平家物語』　　f　『愚管抄』

②　e　『平家物語』　　f　『神皇正統記』

③　e　『太平記』　　f　『愚管抄』

④　e　『太平記』　　f　『神皇正統記』

（Ⅱ）　1392年、３代将軍足利義満は南北朝の合体を実現し、内乱に終止符を打つことに成功した。そして、義満のころには、[B]中央政権としての室町幕府の組織が確立していった。また、義満は、[C]有力守護大名を攻めてその勢力を弱め、幕府の支配を安定させるとともに、[D]日明貿易にも力をいれてその利益で幕府の財政をおぎなった。さらに、[E]義満の時代には鹿苑寺金閣に代表されるさまざまな文化が花開いた。４代将軍足利義持の時代には、将軍と守護大名との勢力の均衡は保たれていたが、６代将軍足利義教は将軍権力の強化をはかって専制的な政治をおこなって有力守護を弾圧したため反発をまねき、1441年に播磨の守護 g に殺害された。これ以降、将軍の権威は大きくゆらぐこととなった。

問６　下線部［B］に関連して、室町幕府の機構について述べた文として誤っているものを、次の ① ～ ④ のうちから一つ選べ。解答欄は カ

① 将軍を補佐する側用人は、斯波・細川・畠山の３氏が交代で務めた。

② 京都の警備などをつかさどる侍所の長官は、赤松・一色・山名・京極から任命されるのが慣例であった。

③ 関東に置かれた鎌倉府の長官の職は、足利尊氏の子の子孫が世襲した。

④ 地方では、九州に九州探題、陸奥に奥州探題などが設置された。

問７　下線部［C］に関連して、周防など６カ国の守護で、足利義満と対立して応永年間に滅ぼされた人物として正しいものを、次の ① ～ ④ のうちから一つ選べ。解答欄は キ

① 山名氏清　② 大内義弘　③ 細川勝元　④ 山名持豊

問８　下線部［D］に関連して述べた文として誤っているものを次の ① ～ ④ のうちから一つ選べ。解答欄は ク

① 遣明船は、明から交付された勘合の持参を義務づけられた。

② 日明貿易は朝貢の形式をとり、滞在費などは明側の負担であった。

③ 遣明船は寧波に入港して査証を受け、首都北京で交易にあたった。

④ 明からの輸入品の銅・刀剣・漆器などは、唐物とよばれ珍重された。

問９　下線部［E］に関連して、足利義満の保護を受けて能を完成させた世阿弥が著した芸術論として正しいものを、次の ① ～ ④ のうちから一つ選べ。解答欄は ケ

① 『菟玖波集』　② 『閑吟集』　③ 『風姿花伝』　④ 『増鏡』

問10　空欄 g に入る人物として正しいものを、次の ① ～ ④ のうちから一つ選べ。解答欄は コ

① 赤松満祐　② 斯波義廉　③ 畠山政長　④ 富樫政親

第３問　次の（Ⅰ）～（Ⅲ）の文章を読み、下の問い（問１～10）に答えよ。解答は各問いの下にある選択肢から一つ選べ。解答欄は［ア］～［コ］

（Ⅰ）　1598年に豊臣秀吉が死去すると、豊臣政権下では五大老の地位にあった徳川家康が大きな力をもつようになった。これに対して豊臣政権の将来に危機感を感じた石田三成は、同じく五大老のひとりで山陽・山陰８カ国を支配していた［a］を盟主にして1600年に兵をあげた。しかし、家康は、［b］で三成らの軍勢をやぶり、西軍の諸大名を処分した。1603年、家康は朝廷から征夷大将軍に任ぜられ、江戸に幕府を開いた。家康は、政権の世襲を示すため、わずか２年後には将軍の地位を子の［c］にゆずったが、大御所と称し政治上の実権をにぎっていた。そして、[A]1614年から1615年にかけて、２度にわたる大坂の陣により豊臣氏を滅ぼした。

問１　空欄［a］に入る人物として正しいものを、次の①～④のうちから一つ選べ。解答欄は［ア］

①　前田利家　　②　毛利輝元　　③　上杉景勝　　④　宇喜多秀家

問２　空欄［b］に入る語句として正しいものを、次の①～④のうちから一つ選べ。解答欄は［イ］

①　桶狭間の戦い　②　長篠の戦い　③　賤ヶ岳の戦い　④　関ヶ原の戦い

問３　空欄［c］に入る人物として正しいものを、次の①～④のうちから一つ選べ。解答欄は［ウ］

①　家治　　②　家重　　③　家慶　　④　秀忠

問４　下線部［A］に関連して、大坂の陣のあと、幕府が発した法令について述べた次の文X・Yについて、その正誤の組み合わせとして正しいものを、下の①～④のうちから一つ選べ。解答欄は［エ］

X　一国一城令を出して、大名の居城を一つに限り、それ以外の領内の城を破却させた。

Y　禁中並公家諸法度を出して、天皇を中心に朝廷が幕府を政治的に支援することを求めた。

①　X　正　　Y　正　　②　X　正　　Y　誤

③　X　誤　　Y　正　　④　X　誤　　Y　誤

（Ⅱ）　３代将軍徳川家光は、1635年、[B]武家諸法度を改定し、大名に対する統制を強化した。大名が領地を支配する組織である藩は、幕府の法に反しない限りで、独自の制度や法を認められていたが、武家諸法度に違反するなどした場合は厳しい処分を受けた。このように、統一政権としての幕府と独立した領地をもつ藩とによって全国の土地と[C]人民を支配するしくみを幕藩体制とよぶ。また、将軍家光のころまでに[D]幕府の政治組織も整備されるとともに、禁教と貿易統制のいっそうの強化もはかられた。1637年から翌年にかけておこった［d］の乱に衝撃を受けた幕府は、1639年に［e］船の来航を禁止し、1641年にはオランダ商館を長崎の出島に移し、外国との貿易を完全な統制下においた。

問５　下線部［B］に関連して述べた次の文X・Yについて、その正誤の組み合わせとして正しいものを、下の①～④のうちから一つ選べ。

解答欄は［オ］

X　大名は妻子を江戸におき、１年ごとに国元と江戸のあいだを往復する参勤交代が義務づけられた。

Y　大名に対して500石積以上の大船を建造することを禁止した。

①　X　正　　Y　正　　②　X　正　　Y　誤

③　X　誤　　Y　正　　④　X　誤　　Y　誤

問６　下線部［C］に関連して述べた次の文X・Yについて、その正誤の組み合わせとして正しいものを、下の ① ～ ④ のうちから一つ選べ。

解答欄は カ

X　農民の負担には、田畑と屋敷地を基準にかけられる小物成と、山野河海の利用や副業にかけられる本途物成などがあった。

Y　幕府は、寛永の飢饉を契機に、本格的に農民対策を講ずるようになり、田畑永代売買禁止令などの法令を出した。

① X 正　Y 正　　② X 正　Y 誤

③ X 誤　Y 正　　④ X 誤　Y 誤

問７　下線部［D］に関連して述べた次の文X・Yについて、その正誤の組み合わせとして正しいものを、下の ① ～ ④ のうちから一つ選べ。

解答欄は キ

X　中央の政務をとりまとめる老中の下には、大名の監察をおこなう目付や幕府財政や直轄地の支配を担当する町奉行などがおかれた。

Y　地方には、朝廷と西国大名の監視をおこなう京都所司代のほか、大坂城代がおかれ、軍事的な拠点として位置づけられた。

① X 正　Y 正　　② X 正　Y 誤

③ X 誤　Y 正　　④ X 誤　Y 誤

問８　空欄 d ・ e に入る語句の組み合わせとして正しいものを、次の ① ～ ④ のうちから一つ選べ。解答欄は ク

① d 島原　e ポルトガル　　② d 島原　e イギリス

③ d 対馬　e ポルトガル　　④ d 対馬　e イギリス

（Ⅲ）1651年、３代将軍徳川家光がなくなり、11歳の徳川家綱が４代将軍になったため、松平信綱ら家光時代の老中が中心になって幕政を運営した。この年に軍学者 f は、政治を批判して乱をくわだてたが、未然にしずめられた。この乱の背景には、大名の改易や減封によって発生した牢人たちの不満があったため、幕府は牢人問題に配慮する必要性を痛感した。そこで大

名が死ぬまぎわに願い出た相続人を認めない［ g ］の禁止をゆるめ、大名の改易を減らそうとする一方、社会秩序を乱す要因となっていた「かぶき者」の取り締まりを強化して、殺伐とした世相をあらためようとした。

問９　空欄［ f ］に入る人物として正しいものを、次の ① ～ ④ のうちから一つ選べ。解答欄は［ ケ ］

① 緒方洪庵　② 村田清風　③ 由井正雪　④ 高野長英

問10　空欄［ g ］に入る語句として適切なものを、次の ① ～ ④ のうちから一つ選べ。解答欄は［ コ ］

① 末期養子　② 分割相続　③ 単独相続　④ 宮家

第４問　次の（Ⅰ）・（Ⅱ）の文章を読み、下の問い（問１～10）に答えよ。解答は各問いの下にある選択肢から一つ選べ。解答欄は［ア］～［コ］

（Ⅰ）　最後の将軍となった［a］を擁する旧幕府軍は、1868年１月に［b］の戦いで新政府軍に敗れた。新政府は４月に江戸城の無血開城を果たし、さらに東北諸藩の抵抗を退け、1869年５月に箱館の五稜郭の戦いに勝利し、国内をほぼ統一した。

この一連の内戦を戊辰戦争というが、戊辰戦争の進行中、新政府は政治の刷新を進めていた。まず1868年３月に、公議世論の尊重と開国和親など新政府の国策の基本を示す［c］を公布した。同年閏４月に政体書を制定、さらに７月には江戸を東京と改めて、８月に明治天皇が即位の礼をあげ、1869年には京都から東京に首都を移した。

新政府は戊辰戦争の勝利にともない没収した旧幕府領に府県をおいたが、諸藩は各大名が統治を続けていた。国内の政治的統一をめざす新政府は、薩摩・長州・土佐・肥前の４藩主に朝廷への［d］を出願させると、他藩の多くもこれに続いた。しかし旧大名は実質的には温存され、徴税・軍事の両権は各藩が有していた。これを改めるため、1871年に廃藩置県が断行され、地方行政は中央政府が派遣する府知事・県令が担うこととなり、ここに国内の政治的統一が実現した。

廃藩置県による国内統一を達成した新政府は、[A]官制改革を進めるとともに、[B]1871年には政府首脳を含む大規模な使節団を米欧諸国に派遣した。留守政府は、以後1873年まで、学制・徴兵制の実施や[C]地租改正などの大規模な内政改革を精力的に進めた。

問１　空欄［a］・［b］に入る語句の組み合わせとして正しいものを、次の①～④のうちから一つ選べ。解答欄は［ア］

①　a　徳川家達　b　鳥羽・伏見　　②　a　徳川家達　b　小牧・長久手

③　a　徳川慶喜　b　鳥羽・伏見　　④　a　徳川慶喜　b　小牧・長久手

問２　空欄 c ・ d に入る語句の組み合わせとして正しいものを、次の①～④のうちから一つ選べ。解答欄は イ

① c　五箇条の誓文　d　版籍奉還　② c　五箇条の誓文　d　辞官納地

③ c　五榜の掲示　d　版籍奉還　④ c　五榜の掲示　d　辞官納地

問３　下線部［A］に関連して、廃藩置県後の官制改革において太政官の最高機関で各省を管轄した機関として正しいものを、次の①～④のうちから一つ選べ。解答欄は ウ

① 正院　② 右院　③ 左院　④ 枢密院

問４　下線部［B］に関連して、幕末に王政復古に尽力した公家で、維新後は右大臣となり、使節団の大使をつとめた人物として正しいものを、次の①～④のうちから一つ選べ。解答欄は エ

① 近衛文麿　② 西園寺公望　③ 三条実美　④ 岩倉具視

問５　下線部［C］に関連して、地租改正の要点について述べた文として誤っているものを、次の①～④のうちから一つ選べ。解答欄は オ

① 課税の基準を地価に設定した。

② 税を物納から金納に改めた。

③ 地券所有者を納税者とした。

④ 不作の年には原則として減税した。

（Ⅱ）　政府は富国強兵のために殖産興業に注力した。関所や宿駅制度の廃止や身分に関わる制約を除去するなど、封建的諸制度の撤廃につとめた。ついで、お雇い外国人の指導のもとに近代産業を政府自ら経営するなどして、その育成をはかった。

インフラとしての通信・交通産業の発展についてみると、 e の建議により、1871 年に飛脚にかわって官営の郵便制度が発足し、のちに全国均一料金制をとった。海運では、近海・沿岸の海運を日本企業に掌握させ、有事の軍事輸送をおこなわせるため、土佐藩出身の f が経営する三菱に手厚い保護を与えた。

政府はまた、北方を開発するため、1869年、蝦夷地を北海道と改称して［ g ］をおき、アメリカ式の大規模農業の技術を移植するため、クラークをまねいて1876年に札幌農学校を開いた。また、1874年には士族授産の意味もあって［ h ］制度を設け、ロシアに対する備えともした。

貨幣制度では、1871年の新貨条例により円・銭・厘を単位とする新硬貨をつくったが、実際のところ、開港場では銀貨が、国内では紙幣が主に用いられた。政府の発行した太政官札や民部省札などは現物の金銀硬貨とは交換できない不換紙幣であったため、兌換銀行券を発行・流通させることが課題となった。政府は商人・地主などの民間の力を利用して、1872年、［ i ］を中心に国立銀行条例を定めた。

総じて政府の富国強兵の政策は、西洋文明の摂取による近代化の推進にねらいがあったため、政府は率先して西洋の産業技術や社会制度、学問、思想などを取り入れようとしていた。この風潮は[D]文明開化とも呼ばれ、思想界のみならず庶民の生活習慣にも浸透した。

問6　空欄［ e ］に入る人物として正しいものを、次の①～④のうちから一つ選べ。解答欄は［カ］

①　前田玄以　　②　前野良沢　　③　前原一誠　　④　前島密

問7　空欄［ f ］に入る人物として正しいものを、次の①～④のうちから一つ選べ。解答欄は［キ］

①　桂小五郎　　②　岩崎弥太郎　　③　木戸孝允　　④　大久保利通

問8　空欄［ g ］・［ h ］に入る語句の組み合わせとして正しいものを、次の①～④のうちから一つ選べ。解答欄は［ク］

①　g　追捕使　h　屯田兵　　②　g　追捕使　h　健児

③　g　開拓使　h　屯田兵　　④　g　開拓使　h　健児

問9　空欄［ i ］に入る人物として正しいものを、次の①～④のうちから一つ選べ。解答欄は［ケ］

①　渋沢栄一　　②　五代友厚　　③　野口遵　　④　高峰譲吉

問10　下線部［D］に関連して、『西洋事情』や『文明論之概略』などを著し、社会に大きな影響を与えた啓蒙思想家として正しい人物を、次の ① ～ ④ のうちから一つ選べ。解答欄は コ

① 福沢諭吉　② 中江兆民　③ 植木枝盛　④ 西周

〔日本史の問題は以上です。〕

令和５年度　世界史入試問題（１日目）

第１問　次のオリエント・古代ギリシア史に関する文章を読み、文章中の空欄【ア】～【セ】にあてはまる語句を、それぞれ後の ① ～ ③ のうちから一つずつ選べ。解答欄は、 ア ～ セ

前２千年紀には、ヒッタイトやカッシートと呼ばれる民族が、オリエントで活動した。この中で、【　ア　】高原に建国したヒッタイトは、いちはやく【　イ　】器を本格的に使用した民族として知られ、前16世紀はじめ、メソポタミアにあった【　ウ　】を滅ぼした。

オリエントの文明がしだいに地中海の東部に波及すると、エーゲ海の島々に文明が誕生した。この文明は、【　エ　】島を中心に築かれた。それはクノッソス宮殿遺跡にみられるような海洋的で軽快な文明で、地中海における交易の中心地になった。

ギリシア本土では、南下してきたギリシア人の一派が、前16世紀ころから【　オ　】やティリンスなどに王国を建て、巨石をもちいた堅固な城塞を特徴とする文明を発展させた。この文明が滅んだのち、前８世紀ころから、ギリシア各地で、貴族が平民を連れて集住し、【　カ　】と呼ばれる都市国家をつくった。彼らは、アクロポリスに神殿を建て、アゴラや人びとの住居など全体を城壁で囲んだ。平和な生活の中で人口が増加すると、ギリシア人は不足する穀物を求めて植民活動にのりだし、地中海や黒海沿岸の各地に植民市を建設した。現在のフランス南部のマルセイユやイタリア中部の【　キ　】は、この時代の植民市が起源であると考えられている。

植民市との交易などによりギリシアでは商工業が発達したが、これを担った平民などが、武具を自ら調達して【　ク　】となり、貴族とならんで防衛の役割を果たすようになった。この結果、このような平民は、政治においても対等な権利を要求して貴族と対立するようになった。有力な都市国家であるアテネでは、前６世紀はじめに【　ケ　】が調停者となり、借財による市民の奴隷化を禁止し、財産額により政治権利の配分が定められた。そののち、平民の不満を背景に

【　コ　】と呼ばれる独裁者が登場したが、彼らが追放された後、【　サ　】は【　コ　】の出現を防止する陶片追放の制度や部族改革を行って民主政の基礎を築いた。

前５世紀になると、オリエントを統一した【　シ　】朝ペルシアが、その支配下にあったイオニア植民市の反乱をきっかけにギリシアに侵攻し、戦争となった。その中で起こったマラトンの戦いや【　ス　】の海戦で中心となって貢献したアテネは、デロス同盟の盟主となった。また、戦争において軍船の漕ぎ手として活躍した下層の平民の政治的発言力も高まり、アテネでは、前５世紀中ごろ、【　セ　】の指導のもとで民主政が完成した。

ア	① イラン	② ゴラン	③ アナトリア
イ	① 鉄	② 青銅	③ 石
ウ	① アッシリア王国	② バビロン第１王朝	③ 新バビロニア王国
エ	① キプロス	② シチリア	③ クレタ
オ	① ミケーネ	② スパルタ	③ トロイア
カ	① デーモス	② ポリス	③ ノモス
キ	① ローマ	② ヴェネツィア	③ ナポリ
ク	① 重装騎兵	② 重装歩兵	③ 弓兵
ケ	① ソロン	② ホルテンシウス	③ スキピオ
コ	① 尊厳者（アウグストゥス）	② 扇動政治家（デマゴーゴス）	③ 僭主（テュランノス）
サ	① ディオクレティアヌス	② ペイシストラトス	③ クレイステネス
シ	① アケメネス	② ササン	③ プトレマイオス
ス	① アクティウム	② サラミス	③ レパント
セ	① アリストテレス	② ペリクレス	③ テミストクレス

第２問　次の史料Ａ・Ｂを読み、後の問１～問12に答えよ。

【史料Ａ】

1．われらの主であり、教師であり給うイエス・クリストが、「汝ら悔(く)い改めをおこなえ」などといい給うとき、それは信者の全生涯が悔い改めであることを欲してい給うのである。

43．人はクリスト者に、〔a〕贖宥状を求めさせるよりは、貧者に与えるか、困窮者に貸す方が善い行為であることを教えるべきであろう。

82．すなわち例を挙げれば、もし教皇が〔b〕教会堂を建築するというがごとき無意味な理由のために、金銭を集めるために無数の霊魂を救うのであるなら、（後略）。

（『精説　世界史史料』一橋出版より）

問１　【史料Ａ】の著者は誰か。次の ① ～ ③ のうちから一つ選べ。

解答欄は、 ア

① マルティン＝ルター　② ウィクリフ　③ トマス＝ミュンツァー

問２　【史料Ａ】の著者は、1517年、この文章をヴィッテンベルクで発表したことによって、1521年に神聖ローマ皇帝からヴォルムスでの帝国議会に召喚され自説の取り消しを求められたが、この皇帝は誰か。次の ① ～ ③ のうちから一つ選べ。解答欄は、 イ

① ハインリヒ４世　② カール５世　③ フェリペ２世

問３　帝国議会で【史料Ａ】の著者は自説の取り消しを拒否し帝国追放刑となったが、ザクセン選帝侯にかくまわれて、その間、宗教改革の進展の上で大きなことを行ったがそれは何か。次の ① ～ ③ のうちから一つ選べ。

解答欄は、 ウ

① 旧約聖書のドイツ語への翻訳

② 新約聖書のドイツ語への翻訳

③ 旧約および新約聖書両方のドイツ語への翻訳

問４　【史料Ａ】の著者の説の信仰を問２の皇帝がいったん認めるきっかけになったのは、ある国が神聖ローマ皇帝の本拠地であるオーストリアへの侵攻を図ったためである。ある国とはどこか。次の ① ～ ③ のうちから一つ選べ。解答欄は、 エ

① ロシア帝国　② オスマン帝国　③ セルジューク朝

問５　1555 年にアウクスブルクで【史料Ａ】の著者の説を信仰する人びとと皇帝との間で和解が成立したが、その内容として適切なものを、次の ① ～ ③ のうちから一つ選べ。解答欄は、 オ

① すべての人びとが【史料Ａ】の著者の説を信仰することを禁止する。

② 諸侯にカトリックか【史料Ａ】の著者の説のどちらかを選択する権利を認め、領民にはそれに従わせる。

③ すべての人びとに信仰の自由を認める。

問６　【史料Ａ】の中の下線部〔a〕は、それを購入した者にとってどのようなものか。次の ① ～ ③ のうちから一つ選べ。解答欄は、 カ

① 犯した罪の償いを行わなくてもよくなるもの。

② 犯した罪がなかったことになるもの。

③ 犯した罪に対する罰になるもの。

問７　【史料Ａ】の中の下線部〔b〕は、当時建築が進んでいた建物を意味しているが、それは具体的に何か。次の ① ～ ③ のうちから一つ選べ。解答欄は、 キ

① サン=ピエトロ大聖堂　② 聖墳墓教会　③ ケルン大聖堂

【史料Ｂ】

国王陛下は、正当かつ合法的に、イングランド教会最高の首長であり、またそうあるべきであって、本王国の聖職者たちも聖職者会議においてそのように認めているのであるが、（中略）、現議会の権限によってつぎのように定める。元首である国王、およびその相続者にして後継者である本王国の諸王は、イングランド教会の〔c〕この世における唯一（ゆいいつ）・最高の首長と考えられ、認められ、みなされる。（後略）

（『新訳　世界史史料・名言集』山川出版社より）

問８　【史料Ｂ】はある法令であるが、これを発布したイングランド国王は誰か。次の ① ～ ③ のうちから一つ選べ。解答欄は、 ク

① ヘンリ８世　② エリザベス１世　③ エドワード３世

問９　【史料Ｂ】の中の下線部〔c〕に関して、イングランド教会ではこの法令が発布される前は誰が「この世における唯一・最高の首長」であったか。次の ① ～ ③ のうちから一つ選べ。解答欄は、 ケ

① 神聖ローマ皇帝　② ローマ教皇　③ 東ローマ（ビザンツ）皇帝

問10　【史料Ｂ】の法令によりイングランド教会とローマ=カトリック教会の関係はどのようになったか。次の ① ～ ③ のうちから一つ選べ。
解答欄は、 コ

① イングランド教会がローマ=カトリック教会の一部として所属する。
② イングランド教会がローマ＝カトリック教会から離脱する。
③ イングランド教会がローマ=カトリック教会を併合する。

問11　【史料Ｂ】の法令が発布されて以降、イングランドでは、都市の商工業者を中心にカルヴァン派の信者も次第に増えていったが、カルヴァン派の信者はイングランドでは何と呼ばれたか。次の ① ～ ③ のうちから一つ選べ。
解答欄は、 サ

① ユグノー　② プレスビテリアン　③ ピューリタン

問12　17世紀になると、イングランドではカルヴァン派のクロムウェルが実権を握り国王を処刑した。その国王は誰か。次の①～③のうちから一つ選べ。

解答欄は、シ

①　ジェームズ１世　　②　チャールズ１世　　③　ウィリアム１世

〔次ページへ続く〕

第３問　次のロシア史に関する文章を読み、後の問１～問４に答えよ。

９世紀、ノルマン人の一派ルーシはスラヴ人が定住していたロシア平原に侵入し、【　ア　】と、ついでキエフ公国を建国したが、まもなくスラヴ人と同化した。キエフ公国はウラディミル１世のもとで領土を拡大した。彼はビザンツ皇帝と姻戚となり、【　イ　】を国教とした。その後、諸侯の分立が続いていたが、13 世紀にモンゴル人が侵入して【　ウ　】=ハン国を建てると、ロシアの諸侯はこれに貢納し、約 240 年にわたって服属した。やがて、諸侯の中からモスクワ大公が台頭し、イヴァン３世のもとで独立を果たすと、彼は【　エ　】を称し、ビザンツ帝国の後継者をもって任じた。次の代に至って【　エ　】は正式に称号となった。

その後、ロシアでは内紛が続いたが、17 世紀はじめにロマノフ朝が成立し、専制政治がはじまった。17 世紀後半に登場した【　オ　】は、自ら西ヨーロッパに出かけて学び、行・財政や軍事の改革による西欧化政策を進めた。彼は、【　カ　】のカール 12 世を北方戦争で破り、「西欧への窓」としてバルト海沿岸に【　キ　】を建設して都を移し、ロシアをヨーロッパの強国に成長させた。また、東方では、中国の【　ク　】とネルチンスク条約を結んで国境を定め、さらにカムチャツカ半島を征服した。

ロシアは、不凍港を求めて、南下政策を進めた。18 世紀後半、エカチェリーナ２世は、オスマン帝国と戦い、クリミア半島とドニエプル川下流の地域を獲得した。1821 年に【X】がオスマン帝国に対して独立戦争をはじめると、ロシアはイギリスやフランスとともに介入して独立を達成させ、さらに 1829 年の条約で黒海から地中海への出口であるボスフォラス･ダーダネルス両海峡（以下、「両海峡」と記述）の自由通行権をオスマン帝国に承認させた。つづいて、オスマン帝国下で【　ケ　】の総督に任命されていたムハンマド=アリーが、シリアの領有をめざして起こした戦争にも介入し、ロシアはオスマン帝国を支援し、２度にわたって戦った。第１次の戦争が終わって 1833 年に結ばれた条約では、ロシア以外の外国軍艦が両海峡を通行することを禁じることに成功したが、第２次の戦争後の五国海峡条約では 1833 年の条約が廃棄され、外国軍艦の両海峡通行は禁止され、ロシアの南下政策は後退した。

この後退を回復するべく、1853 年、ロシアはオスマン帝国と開戦したが、イ

ギリス、フランスなどがオスマン帝国側で参戦した。この戦争は、黒海に面した【Y】にあるセヴァストーポリ要塞をめぐって激戦が交わされたが、ロシアは敗れた。講和会議はパリで開催され、結局、両海峡は封鎖されることになり、南下政策は再び行き詰まった。この戦争を通じて、ロシアでは、軍事のみならず社会や経済の近代化の必要性が明らかとなったため、皇帝【　コ　】は、人口の大半を占めていながら自由を奪われていた農民の地位を向上させる農奴解放令を発布した。

1870年代に入ると、バルカン半島でスラヴ系の人びとのオスマン帝国からの独立・統一をめざす民族運動が起こり、ロシアはこれを支援し、オスマン帝国との戦争となった。この講和条約で、セルビア、モンテネグロ、ルーマニアの独立と、【Z】の自治公国建設が認められ、南下政策は進んだ。しかし、これも、ドイツ帝国宰相のビスマルクの仲介により開催された1878年の【　サ　】会議で【Z】の領土縮小が決定された結果、ロシアはまたも南下政策を阻止された。

問1　文章中の空欄【ア】～【サ】にあてはまる語句を、それぞれ下の①～③のうちから一つずつ選べ。解答欄は、ア ～ サ

ア　①　ブルグンド王国　②　ノヴゴロド国　③　ヴァンダル王国

イ　①　ギリシア正教　②　ローマ=カトリック　③　イスラーム

ウ　①　チャガタイ　②　イル　③　キプチャク

エ　①　インペラトル　②　ツァーリ　③　ファラオ

オ　①　イヴァン４世　②　ニコライ１世　③　ピョートル１世

カ　①　スウェーデン　②　デンマーク　③　ノルウェー

キ　①　ウラジヴォストーク　②　ブレーメン　③　ペテルブルク

ク　①　宋　②　明　③　清

ケ　①　エジプト　②　シリア　③　イラン

コ　①　アレクサンドル１世　②　アレクサンドル２世　③　ニコライ２世

サ　①　ワルシャワ　②　ベルリン　③　ウィーン

問２　文章中の【X】にあてはまる場所を、地図中の ① ～ ③ のうちから一つ選べ。解答欄は、 シ

問３　文章中の【Y】にあてはまる場所を、地図中の ④ ～ ⑥ のうちから一つ選べ。解答欄は、 ス

問４　文章中の【Z】にあてはまる場所を、地図中の ⑦ ～ ⑨ のうちから一つ選べ。解答欄は、 セ

第４問　次の近現代の中国の略年表を見て、後の問１～問11に答えよ。

18世紀後半～ 19世紀初頭	このころ[A]イギリスとの貿易が盛んに行われる
	①
1840年	[B]アヘン戦争が勃発する
	②
1851年	洪秀全らが[C]太平天国を建国する
	③
1894年	[D]日清戦争が勃発する
	④
1912年	前年に勃発した【　E　】により、中華民国が成立する
	⑤
1931年	[F]満州事変が勃発する
	⑥
1937～1945年	日中戦争
	このころ大陸に残留させられた様々な職種の日本人（留用者）の多くが中国人に軍事・医学・鉄道運営などの指導を行う
1949年	[G]中華人民共和国が成立し、中華民国政府は台湾に移る
	⑦
1958年	[H]「大躍進」運動が行われる
	⑧
1972年	[I]日中の国交が正常化する
1978年	[J]改革・開放政策が実施される
	⑨
1989年	天安門事件（第２次）で民主化運動が弾圧される
2020年	香港国家安全維持法により民主化運動の弾圧が本格化する

問１　下線部［A］について、この貿易で中国からイギリスへ輸出された商品として適切でないものを、次の ① ～ ④ のうちから一つ選べ。

解答欄は、 ア

① 茶　② 陶磁器　③ 絹織物　④ 毛織物

問２　下線部［B］について、次の問に答えよ。

(1) 1842 年に清とイギリスが締結した、この戦争の講和条約の内容として適切でないものを、次の ① ～ ④ のうちから一つ選べ。

解答欄は、 イ

① 香港島の割譲　② 関税自主権の喪失（協定関税制）

③ 公行の廃止　④ 賠償金の支払い

(2) この講和条約の翌々年に清がアメリカと締結した不平等条約を、次の ① ～ ④ のうちから一つ選べ。解答欄は、 ウ

① 天津条約　② 黄埔条約　③ 北京条約　④ 望厦条約

問３　下線部［C］が行った政策として適切でないものを、次の ① ～ ④ のうちから一つ選べ。解答欄は、 エ

① アヘン吸飲や纏足などの禁止　② 「扶清滅洋」を主張

③ 土地の均分（天朝田畝制度）　④ 南京を天京と改称

問４　下線部［D］について、この戦争の講和条約の内容として適切でないものを、次の ① ～ ④ のうちから一つ選べ。解答欄は、 オ

① 朝鮮の独立の承認

② 日本への賠償金の支払い

③ 日本への南満州鉄道の敷設権の付与

④ 日本への遼東半島・台湾・澎湖諸島の割譲

問５　空欄【E】にあてはまる語句を、次の ① ～ ④ のうちから一つ選べ。

解答欄は、 カ

① 戊戌の政変　② 同治中興　③ 上海クーデタ　④ 辛亥革命

問６　下線部［F］について、この事変の契機となった事件を、次の ① ～ ④ のうちから一つ選べ。解答欄は、 キ

① 義和団事件　② 柳条湖事件　③ 西安事件　④ 盧溝橋事件

問７　下線部［G］について、次の問に答えよ。

(1) この国の初代主席に就任した人物を、次の ① ～ ④ のうちから一つ選べ。解答欄は、 ク

① 袁世凱　② 毛沢東　③ 張作霖　④ 周恩来

(2) 共産党との内戦に敗れて台湾で中華民国政府（国民政府）を再編した人物を、次の ① ～ ④ のうちから一つ選べ。解答欄は、 ケ

① 李登輝　② 汪兆銘　③ 蔣介石　④ 段祺瑞

問８　下線部［H］で行われた政策として適切なものを、次の ① ～ ④ のうちから一つ選べ。解答欄は、 コ

① 四つの現代化の推進　② 列強への鉄道敷設権の承認

③ 人民公社による農業の集団化　④ 関税自主権の回復

問９　下線部［I］の時の日本の首相を、次の ① ～ ④ のうちから一つ選べ。解答欄は、 サ

① 田中角栄　② 吉田茂　③ 佐藤栄作　④ 中曽根康弘

問10　下線部［J］で行われた政策として適切でないものを、次の ① ～ ④ のうちから一つ選べ。解答欄は、 シ

① 外国資本・技術の導入　② 出版・言論の自由の確立

③ 農業生産の請負制　④ 沿岸部への経済特区の設置

問11　次の事項は年表中のどこの空欄に入るか。年表中の ① ～ ⑨ のうちからそれぞれ一つずつ選べ。解答欄は、Aは ス 、Bは セ 、Cは ソ

A　五・四運動が起こる

B　プロレタリア文化大革命（文化大革命）がはじまる

C　洋務運動が行われる

〔世界史の問題は以上です。〕

令和５年度　地理Ｂ入試問題（１日目）

第１問　A　地球の緯度帯ごとの気候を表す図１に関して、問１～問５に答えよ。

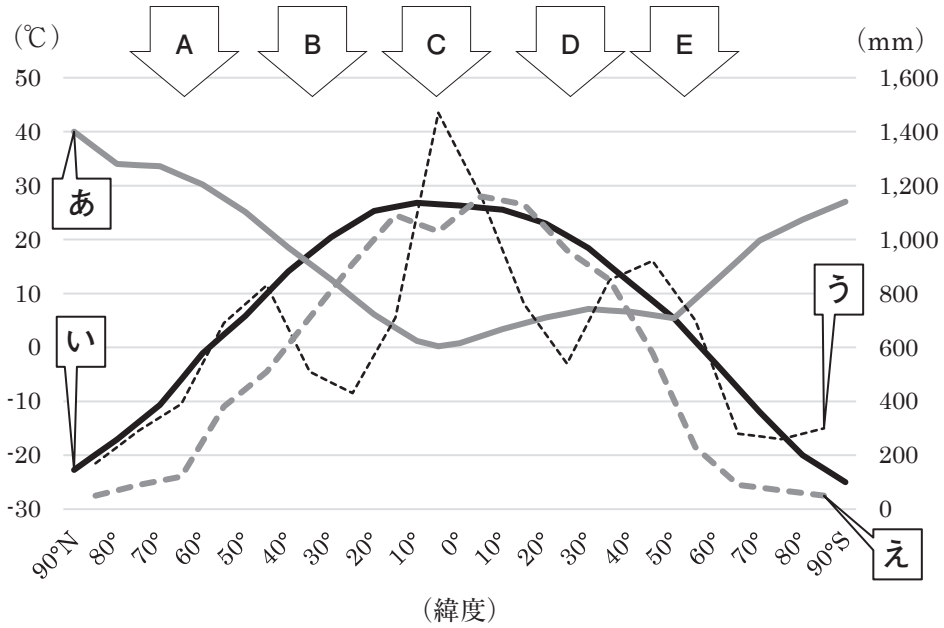

図１　地球の緯度帯ごとの気候要素、気象現象（矢印）

図１は、地球の緯度帯ごとに、年平均気温と、１月・７月の月平均気温の差、年平均降水量、年平均蒸発量を、折れ線 **あ** ～ **え** で表している。このうち実線 **あ**・**い** の数値（℃）は左の軸、破線**う**・**え**の数値（mm）は右の軸で示している。

問１　図１中の折れ線 **あ** ～ **え** の示すものの組み合わせを、次の ① ～ ④ の中から１つ選べ。解答欄は、 ア 。

① **あ**：年平均気温　　**い**：１月・７月の月平均気温の差
　う：年平均降水量　　**え**：年平均蒸発量

② **あ**：年平均気温　　**い**：１月・７月の月平均気温の差
　う：年平均蒸発量　　**え**：年平均降水量

③ **あ**：１月・７月の月平均気温の差　　**い**：年平均気温
　う：年平均降水量　　**え**：年平均蒸発量

④ **あ**：１月・７月の月平均気温の差　　**い**：年平均気温
　う：年平均蒸発量　　**え**：年平均降水量

問２　図１中の **あ** の線は、ほかの線よりも、赤道を中心とした南北の非対称が著しい。その理由を示す記述として最も正しいものを、次の ① ～ ④ の中から１つ選べ。解答欄は、 イ 。

① 北半球よりも南半球で、地軸の傾きにより太陽への距離が短くなっているため。

② 北半球よりも南半球で、海洋の面積が大きいため。

③ 南半球よりも北半球で、地球表面の比熱が大きいため。

④ 南半球よりも北半球で、大陸氷河の面積が大きいため。

問３　図１中の矢印 **A** ～ **C** で示す緯度付近にある地域で特有な気象現象（ほかの矢印の緯度ではほぼ見られない）を、次の **か** ～ **さ** から選び、その正しい組み合わせを、表１の ① ～ ⑧ の中から１つ選べ。解答欄は、 ウ 。

か　モレーン　　**き**　ブリザード　　**く**　梅雨　　**け**　モンスーン
こ　スコール　　**さ**　ハリケーン

表１（組み合わせ）

	A	B	C
①	か	く	こ
②	か	け	さ
③	き	く	こ
④	き	け	さ

	A	B	C
⑤	か	け	こ
⑥	か	く	さ
⑦	き	け	こ
⑧	き	く	さ

問４　図１の矢印Ｄで示す南緯30度付近の農業景観についての記述ではないものを、次の ① ～ ④ の中から１つ選べ。解答欄は、 エ 。

① 南アメリカ南部ではパンパと呼ばれる大平原が広がり、この肥沃な草原地域で小麦栽培や牛の放牧が大規模に行われている。

② オーストラリア南西部は冬季に雨の多い地中海性気候区域で、小麦栽培と羊の放牧が大規模に行われている。

③ 南アフリカ共和国のオレンジ川流域は乾燥気候区域で荒涼とした山肌が迫るが、水の得られる地域ではブドウや綿花の栽培が行われている。

④ ペルーのアンデス山脈の高度3,000m地域は灌木や草原地域で、栽培できるものがジャガイモくらいに限られる。

問５　図１の矢印Ｅで示す南緯50度付近に分布しない気候区分の記号を、次の ① ～ ④ の中から１つ選べ。解答欄は、 オ 。

① Cfb　② BS　③ ET　④ Df

B　ユーラシア北部の気候と、その地域の温暖化に関する問６～問15に答えよ。

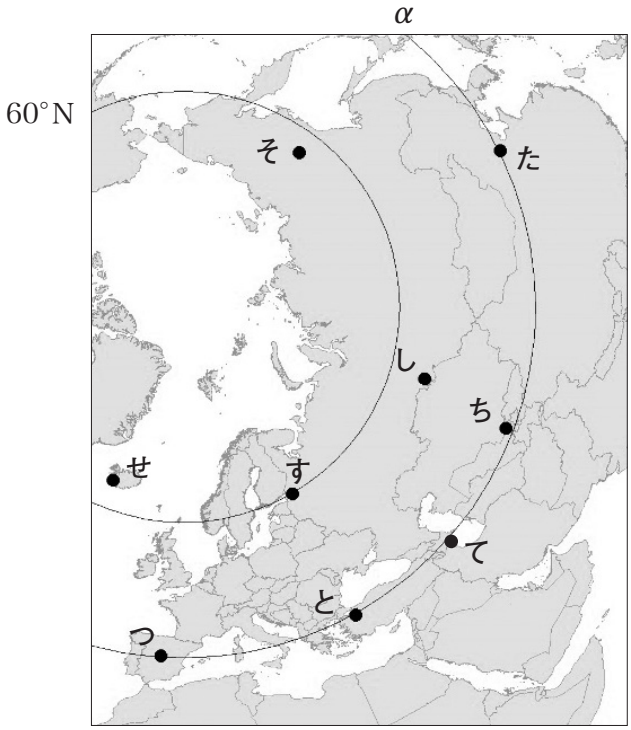

図２　北極を中心としたランベルト正積方位図法のユーラシア北部

問６　図２に示される２本の緯線のうち、α の緯線の緯度を、次の ① ～ ④ の中から１つ選べ。解答欄は、 カ 。

① 北緯 50 度　② 北緯 40 度　③ 北緯 30 度　④ 北緯 20 度

問７　図２の北緯 60 度線の付近にある３つの観測点 し ～ せ と、次の雨温図Ｆ～Ｈとの正しい組み合わせを、表２の ① ～ ⑥ の中から１つ選べ。解答欄は、 キ 。

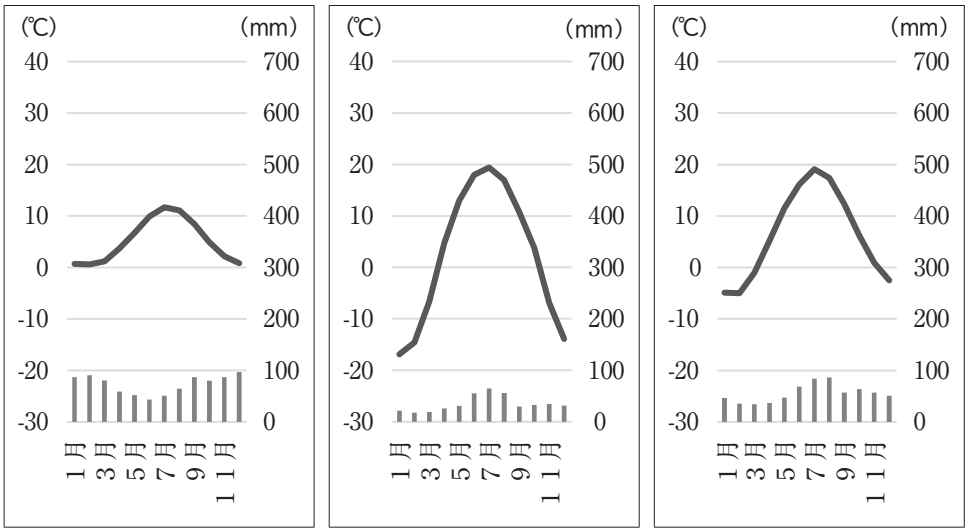

F　G　H

数値は、国立天文台『理科年表 2022』による。

表２（組み合わせ）

	①	②	③	④	⑤	⑥
F	し	し	す	す	せ	せ
G	す	せ	し	せ	し	す
H	せ	す	せ	し	す	し

問８　図２中 し ～ そ の４つの観測点に共通した自然環境について正しいものを、次の ① ～ ④ の中から１つ選べ。解答欄は、 ク 。

① 白夜と極夜がある　② 樹木気候である

③ 永久凍土がある　④ Ｄ気候区にある

問９　図２中の α の緯線付近の３つの観測点 **た** ～ **つ** と、次の雨温図Ｉ～Ｋとの正しい組み合わせを、表３の ① ～ ⑥ の中から１つ選べ。

解答欄は、 ケ 。

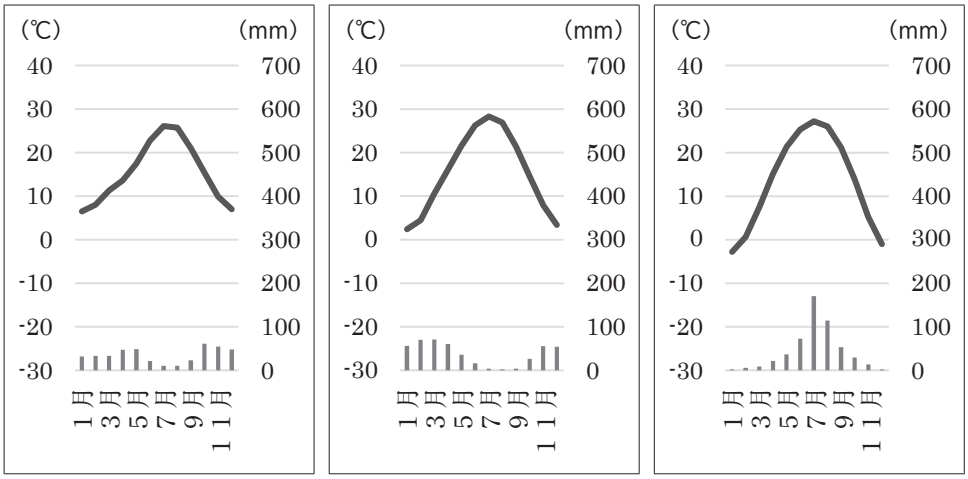

Ｉ　　Ｊ　　Ｋ

数値は、国立天文台『理科年表 2022』による。

表３（組み合わせ）

	①	②	③	④	⑤	⑥
Ｉ	た	た	ち	ち	つ	つ
Ｊ	ち	つ	た	つ	た	ち
Ｋ	つ	ち	つ	た	ち	た

問10　図２中 **た** ～ **と** の５つの観測点のうち、１月の月降水量が７月の月降水量より少ない場所を、次の ① ～ ⑤ の中から１つ選べ。解答欄は、 コ 。

① た　　② ち　　③ つ　　④ て　　⑤ と

問11　2022年版『理科年表』のデータ「世界の気温の月別平年値」は、ほとんどが1991～2020年の30年間の平年値に改訂された。それまでの主に1981～2010年の平年値と比較して、多くの観測点で年平均気温は高くなり、図2中の9観測点のうち、以前の平年値と比較可能な7か所で、0.2～0.6℃の上昇が見られた。図2中 **す** ～ **た** の1991～2020年の平年値（L）と、1981～2010年の平年値（M）の月平均気温を示した表のうち、**そ** の観測点に該当するものを、次の①～④の中から1つ選べ。解答欄は、 サ 。

①

	1月	2月	3月	4月	5月	6月	7月	8月	9月	10月	11月	12月	年平均
(L)	−2.8	0.6	7.5	15.1	21.3	25.3	27.2	26.0	21.2	13.8	5.2	−1.0	13.3
(M)	−3.1	0.2	6.7	14.8	20.8	24.9	26.7	25.5	20.7	13.7	5.0	−0.9	12.9

②

	1月	2月	3月	4月	5月	6月	7月	8月	9月	10月	11月	12月	年平均
(L)	−45.6	−42.2	−30.4	−12.6	3.6	12.7	15.3	10.9	2.5	−13.6	−34.4	−45.0	−14.9
(M)	−46.4	−42.2	−31.1	−13.5	2.7	12.5	14.8	10.4	2.2	−14.5	−35.0	−45.4	−15.5

③

	1月	2月	3月	4月	5月	6月	7月	8月	9月	10月	11月	12月	年平均
(L)	0.7	0.6	1.2	3.7	6.7	9.9	11.7	11.1	8.5	4.9	2.2	0.8	5.2
(M)	0.0	0.1	0.6	3.0	6.6	9.5	11.2	10.7	8.0	4.4	1.9	0.6	4.7

④

	1月	2月	3月	4月	5月	6月	7月	8月	9月	10月	11月	12月	年平均
(L)	−4.9	−5.0	−1.0	5.2	11.5	16.1	19.1	17.4	12.4	6.2	0.9	−2.5	6.3
(M)	−5.5	−5.8	−1.3	5.1	11.3	15.7	18.8	16.9	11.6	6.2	0.1	−3.9	5.8

数値は、国立天文台『理科年表　平成26年』、『理科年表　2022』による。

問12　気温の平年値の上昇は、地球温暖化による影響が大きいと考えられる。気候変動に関する政府間パネル（IPCC）の第６次評価報告書において、より長期である 1901 ～ 2012 年の温暖化の傾向については、次の文のような説明がなされている。この文の空欄Ｎ・Ｏに入る語句の正しい組み合わせを、下の ① ～ ④ の中から１つ選べ。解答欄は、 シ 。

地球温暖化による平均気温の上昇は、＿＿Ｎ＿＿ の ＿＿Ｏ＿＿ ほど、上昇が大きくあらわれている。

① Ｎ：低緯度　Ｏ：海洋部　　② Ｎ：低緯度　Ｏ：大陸部

③ Ｎ：高緯度　Ｏ：海洋部　　④ Ｎ：高緯度　Ｏ：大陸部

問13　図２のうちの寒冷な地域では地球温暖化により起きた現象によって、さらに温暖化を加速する要因があるとされる。この地域にある温暖化を進める要因の記述として適切でないものを、次の ① ～ ④ の中から１つ選べ。
解答欄は、 ス 。

① 地下に閉じ込められていたメタンが凍土の融解で大気中に放出され、温室効果を強める。

② 雪のない期間が長期化して、太陽光の地面への吸収量が増大し、地温の上昇が著しくなる。

③ 針葉樹の浅い根の下にある凍土が溶け、倒木の多い荒れ地の地温が上昇する。

④ 光合成の能力が強くない広葉樹林が増え、地球の肺とよばれる熱帯雨林の分布をせばめる。

問14　地球温暖化によって、気温の平年値が上昇することで場所によってはケッペンの気候区分が変化することが予想される。平均気温上昇による気候区変更を述べた文のうち、気候区分基準上の変化として適切でないものを、次の①～④の中から１つ選べ。解答欄は、 セ 。

①　最寒月平均気温が18℃以上に上がることで、Cw → Aw

②　平均気温上昇により年降水量が乾燥限界を下まわることで、Dw → BS

③　平均気温上昇により年降水量が乾燥限界を下まわることで、Cw → BW

④　最寒月平均気温が－３℃以上に上がることで、Df → Cfa

問15　現在、地域経済に影響を及ぼしている季節的な現象は、地球温暖化による気候変動により、さらに拡大することが懸念されている。そうした現象のうち図２の範囲内で発生していないものを、次の①～④の中から１つ選べ。解答欄は、 ソ 。

①　レナ川上流地域では雪解け時に路面がぬかるみになり、鉱業都市などでは外部との交通が遮断されるが、今後その範囲はより広くなることが懸念される。

②　チャオプラヤ川流域では工業団地の浸水被害が大規模に発生したことがあり、洪水の頻度上昇で日系企業の供給網の遮断が懸念される。

③　ポー川流域ではアルプス山麓の雪解け水を利用した豊かな稲作地域が形成されているが、氷河の消滅によって深刻な水不足が懸念される。

④　ホワンホー流域では水不足が著しく、農業用水の需要が高まる５～９月には断流現象も起きているが、より深刻な水不足が懸念される。

第２問　A　日本の人口問題について、問１～問５に答えよ。

問１　日本の人口動態について述べた文のうち適切でないものを、次の ① ～ ④ の中から１つ選べ。解答欄は、 ア 。

① 日本では第二次世界大戦後のベビーブームの後は出生率が急激に低下し、1970 年代後半以降は合計特殊出生率が人口減少に転ずる指標である 2.1 を下まわる状態が続いている。

② 日本では少子高齢化が急速に進んでおり、1997 年には老年人口が生産年齢人口を上まわるようになった。

③ 日本では高齢化社会から高齢社会に至る倍化年数が他の先進諸国と比べて短く、1970 年に高齢化社会になった後、わずか 24 年後の 1994 年に高齢社会になった。

④ 日本では 2005 年から 2010 年の間に総人口はピークをむかえて人口減少社会に転じ、今世紀なかばには１億人を下まわると予想されている。

問２　日本の少子化に関して述べた文のうち適切でないものを、次の ① ～ ④ の中から１つ選べ。解答欄は、 イ 。

① 日本では、高齢者福祉に比べて子供や教育に関する財政支出が少ないうえ、働きながら子供を育てる女性への支援も十分ではなく、男性の長時間労働も常態化している。

② 日本では、若年層の非正規雇用が増加しており、不安定な雇用環境が非婚化・晩婚化を促すだけでなく、子供をもうけることへの不安も増大させている。

③ 日本では、保育所への入所を希望しているが空きがないために入所できないという待機児童問題が解決されていない。

④ 日本では、ほかの先進諸国に比べて 30 歳代の女性の就業率が高く、育児休業制度の利用促進が大きな課題となっている。

問３　次の図１～図３は、都道府県別の年齢別人口割合（年少人口・生産年齢人口・老年人口、2020 年）について、それぞれ上位・下位の６都道府県を表したものである。この組み合わせとして正しいものを、表１の ① ～ ⑥ の中から１つ選べ。解答欄は、 ウ 。

図１

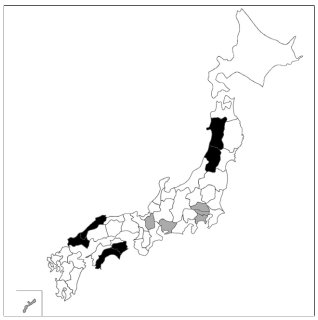

図２

図３

上位６都道府県　下位６都道府県

数値は、矢野恒太記念会『日本国勢図会 2022/23』による。

表１（組み合わせ）

	図１	図２	図３
①	年少人口	生産年齢人口	老年人口
②	年少人口	老年人口	生産年齢人口
③	生産年齢人口	年少人口	老年人口
④	生産年齢人口	老年人口	年少人口
⑤	老年人口	年少人口	生産年齢人口
⑥	老年人口	生産年齢人口	年少人口

問４　次の図４～図６は、人口増加率（2015～2020年）・在留外国人数（2020年）・合計特殊出生率（2020年）について、都道府県を４階級に区分して表したものである。この組み合わせとして正しいものを、表２の①～⑥の中から１つ選べ。解答欄は、［　エ　］。

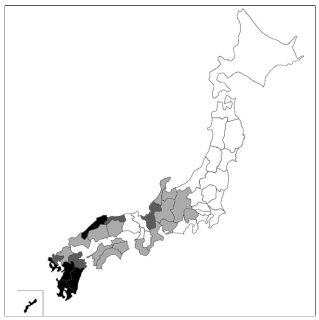

図４

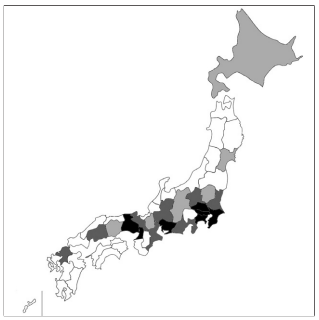

図５

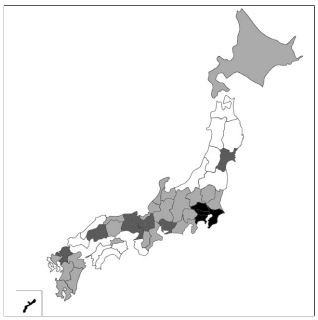

図６

← 上位　　下位 →

数値は、矢野恒太記念会『日本国勢図会 2022/23』ほかによる。

表２（組み合わせ）

	図４	図５	図６
①	人口増加率	在留外国人数	合計特殊出生率
②	人口増加率	合計特殊出生率	在留外国人数
③	在留外国人数	人口増加率	合計特殊出生率

	図４	図５	図６
④	在留外国人数	合計特殊出生率	人口増加率
⑤	合計特殊出生率	人口増加率	在留外国人数
⑥	合計特殊出生率	在留外国人数	人口増加率

問５　日本の人口分布には著しい地域差が見られ、大都市圏では過密の問題が生じる一方で、地方の山間地域や離島などでは人口減少と高齢化による過疎の問題が深刻になっている。このことについて述べた文のうち適切でないものを、次の①～④の中から１つ選べ。解答欄は、［　オ　］。

①　中国地方は老年人口の割合が50％をこえる限界集落が最も多く、そのような集落では社会生活の維持が困難になり、存続自体も限界に達している。

②　都道府県間の人口の差が拡大したため「一票の格差」の問題が起き、2016年の参議院選挙から最も人口の少ない中国地方の鳥取県と島根県、四国地方の高知県と徳島県の４県が合区の対象となった。

③　過疎地域の人口が全国に占める割合は１割以下であるが、面積は国土の約６割を占めている。

④　日本の農山村では、1980年代後半のバブル経済の時期の若年労働力の流出によって過疎地域が広がった。

B　世界の人口問題について、次の文章と図７を見て、問６～問13に答えよ。

［a］世界の人口は著しく偏って分布している。人口分布の地域差は、自然環境や社会、経済の形態など地域的特徴を反映している。西ヨーロッパや北アメリカ東部では、（　v　）革命が契機となって著しく経済が発展し、アジアでは多くの人口を養うことができる（　w　）農業が古くから発達した。こうした地域では現在も人口密度が高い。

国際的な人口移動は、その時代や地域の様々な状況を反映している。アジアでは古くから［b］中国人が東南アジアをはじめとする世界各地に進出して、現地にとけ込み、華人とよばれるようになった。［c］日本も19世紀末から南・北アメリカなどに移民を送り出した。

20世紀後半以降は、過剰な労働人口を抱える発展途上国から賃金水準の高い先進国へ、労働を目的とする人口移動が盛んになった。例えば、［d］ヨーロッパの先進国には出稼ぎのために移住した人々が多く生活している。

［e］発展途上国では人口増加が著しい。子供は生計を支える大切な労働力であり、乳児死亡率が高いことから子供をたくさんもうけようとするためである。また、人口の大半が第一次産業に従事していることが多いが、生産性が低く現金収入が不十分であるため、生活を支えるために、農村から都市への人口移動が続いているところも多い。

一方、［f］先進国では少子高齢化が進んでいる国が多い。晩婚化や非婚化、子供を持たない夫婦や子供が一人の家庭の増加によって、少子化が進行する。本来、平均寿命がのびることは好ましいことであるが、多くの先進国では長寿化の進行によって死亡率が上昇し、少産多死とも言える状況になっている。［g］少子化の原因と背景には先進国の社会構造の変化があるが、その対策には様々な取り組みが必要である。

図７　世界地図

問６　文章中の下線部［ａ］に関して、次の表３は世界の地域別人口と面積の割合を表したものである。**あ** ～ **う** に適する地域の組み合わせとして正しいものを、表４の ① ～ ⑥ の中から１つ選べ。解答欄は、 **カ** 。

表３　世界の地域別人口と面積の割合（2020 年）

	人口（%）	面積（%）
アジア	59.5	23.9
あ	17.2	22.8
い	9.6	17.0
中央・南アメリカ	8.4	15.5
う	4.7	14.3
オセアニア	0.5	6.5
計	100.0	100.0

※「中央・南アメリカ」にはカリブ海諸国を含む。
※「面積」は表中の６地域の合計を100% とする。

数値は、矢野恒太記念会『世界国勢図会 2021/22』ほかによる。

表４（組み合わせ）

	①	②	③	④	⑤	⑥
あ	ヨーロッパ	ヨーロッパ	アフリカ	アフリカ	北アメリカ	北アメリカ
い	アフリカ	北アメリカ	ヨーロッパ	北アメリカ	ヨーロッパ	アフリカ
う	北アメリカ	アフリカ	北アメリカ	ヨーロッパ	アフリカ	ヨーロッパ

問７　文章中の（　ｖ　）革命の発祥地と、（　ｗ　）農業の作物の原産地として適切な場所を、図７のＡ～Ｆからそれぞれ選び、その組み合わせとして適切なものを、表５の ① ～ ⑨ の中から１つ選べ。解答欄は、 キ 。

表５（組み合わせ）

	①	②	③	④	⑤	⑥	⑦	⑧	⑨
（ｖ）革命	A	A	A	B	B	B	C	C	C
（ｗ）農業	D	E	F	D	E	F	D	E	F

問８　文章中の下線部［ｂ］に関して、東南アジアに住む中国系住民について述べた文のうち適切なものを、次の ① ～ ④ の中から１つ選べ。
解答欄は、 ク 。

① 東南アジアには多くの中国系住民が住んでおり、中でもシンガポールでは人口の半数以上を占めている。

② 東南アジアに住む中国系住民は、中国で広く信仰されている上座仏教をそのまま持ち込んでいる場合が多い。

③ マレーシアでは経済格差の是正を図るため、中国系住民を優先するブミプトラ政策がとられ、民族共存の道が模索されてきた。

④ 東南アジアに住む中国系住民は、気候の厳しい中国東北部のヘイロンチャン（黒竜江）省や内陸部のスーチョワン（四川）省の出身者が多い。

問９　文章中の下線部［ｃ］に関して、南・北アメリカに移住した日本人について述べた文のうち適切でないものを、次の ① ～ ④ の中から１つ選べ。
解答欄は、 ケ 。

① ラテンアメリカの多くの国々には日系人が住んでおり、中でもブラジルには現在も最大の日系社会が存在している。

② 19 世紀後半にアメリカ合衆国へ移住した日本人は、アメリカンドリームを実現するために主に東岸の都市部に住み、そこで日系コミュニティを形成した。

③ ラテンアメリカに移住した日本人移民の子孫である日系人は高度な専門職に就く人が多いことで知られており、ペルーのように日系人が大統領を務めた国もあるなど、各国の政治･経済分野で大きな役割を果たしている。

④ 1990 年代にはラテンアメリカの日系人が逆に日本に出稼ぎに来て工場などで働くようになり、とくに自動車関連工場が立地する都市ではブラジル出身の日系人が多く働いている。

問10　文章中の下線部［ｄ］に関して、次の表６はイギリス・フランス・ドイツの移民（外国生まれ人口）について､その出身国の上位３か国を表しており、表中の **え** ～ **か** の国は図７のＧ～Ｉのいずれかである。その組み合わせとして適切なものを、表７の ① ～ ⑥ の中から１つ選べ。解答欄は、 コ 。

表６　移民（外国生まれ人口）の主な出身国

イギリス		フランス		ドイツ	
え	936	**お**	1,363	**か**	1,364
インド	755	モロッコ	924	**え**	1,334
パキスタン	482	ポルトガル	633	ロシア	957

（2015 年現在・単位：千人）

数値は、帝国書院『地理データファイル 2022 年度版』による。

表７（組み合わせ）

	①	②	③	④	⑤	⑥
え	G	G	H	H	I	I
お	H	I	G	I	G	H
か	I	H	I	G	H	G

問11　文章中の下線部［ｅ］に関して、次の表８は図７のＪ～Ｌの３か国の平均寿命・乳児死亡率・人口の自然増加率・都市人口率を表したものである。表中の **き** ～ **け** と図７のＪ～Ｌとの組み合わせとして適切なものを、表９の①～⑥の中から１つ選べ。解答欄は、 **サ** 。

表８　Ｊ～Ｌの平均寿命・乳児死亡率・人口の自然増加率・都市人口率

	平均寿命（年）	乳児死亡率（千人あたり）	人口の自然増加率（千人あたり）	都市人口率（％）
き	70.8	28.3	13.8　［2018 年］	34.9
く	75.9	12.4	8.1　［2018 年］	87.1
け	62.6	74.2	25.8　［2019 年］	52.0

※統計年次は、平均寿命・乳児死亡率は 2019 年、人口の自然増加率は表中、都市人口率は 2020 年。

数値は、矢野恒太記念会『世界国勢図会 2021/22』による。

表９（組み合わせ）

	①	②	③	④	⑤	⑥
き	J	J	K	K	L	L
く	K	L	J	L	J	K
け	L	K	L	J	K	J

問12　文章中の下線部［ｆ］に関して、次の図８・図９は、日本・アメリカ合衆国・フランスの合計特殊出生率と老年人口（65 歳以上）割合の推移を表したものである。グラフ中の こ ～ し との組み合わせとして適切なものを、表 10 の ① ～ ⑥ の中から１つ選べ。解答欄は、 シ 。

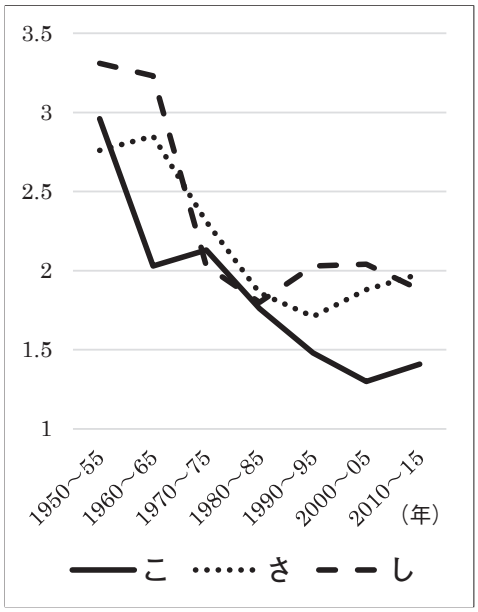

図８　合計特殊出生率の推移

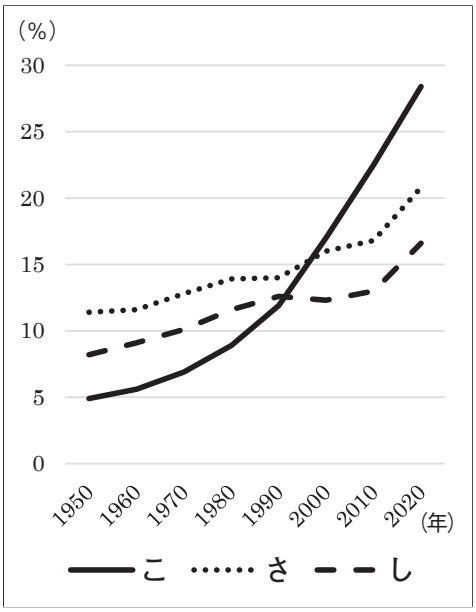

図９　老年人口割合の推移

表 10（組み合わせ）

	こ	さ	し
①	日　本	アメリカ合衆国	フランス
②	日　本	フランス	アメリカ合衆国
③	アメリカ合衆国	日　本	フランス

	こ	さ	し
④	アメリカ合衆国	フランス	日　本
⑤	フランス	日　本	アメリカ合衆国
⑥	フランス	アメリカ合衆国	日　本

問13　文章中の下線部［ｇ］に関して、次にあげた施策のうち、少子化対策として適切でないものを、次の ① ～ ④ の中から１つ選べ。解答欄は、 ス 。

① 女性の社会進出を前提としたワークライフバランスのとれた生活の実現。

② 男女の労働時間の短縮や有給休暇などの育児休業制度の確立。

③ 法律婚以外の多様な家族を認める法制度。

④ 個人の権利と選択を重視したリプロダクティブ・ヘルス／ライツ（性と生殖に関する健康と権利）の確立。

第３問　アフリカに関する問１～問４に答えよ。

問１　アフリカ大陸の自然環境について、次の文章と図１を見て、（１）～（７）に答えよ。

アフリカ大陸は、中生代中期以降の＿＿A＿＿大陸の断片であり、ほとんどが安定陸塊である。全体にテーブル状の地形をしているため、海岸付近に低地は少なく、河川は下流部に急流がある。大地溝帯は全長 7,000km に及び、その周辺は山岳地帯で[B]標高 5,000m をこえるアフリカ最高峰もある。

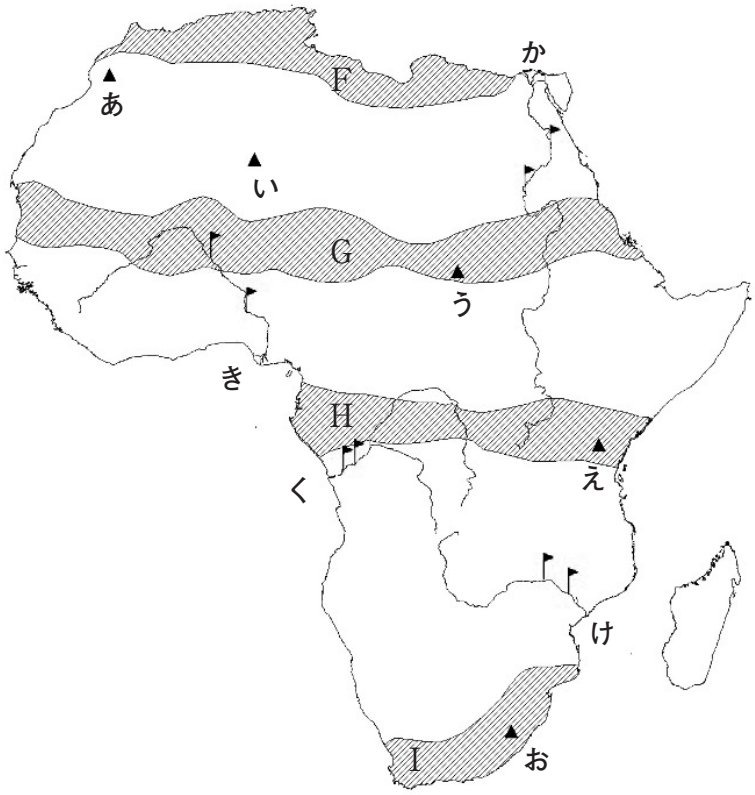

図１　アフリカの自然環境

（１）＿＿A＿＿にあてはまる語句を、次の ① ～ ④ の中から１つ選べ。

解答欄は、 ア 。

① パンゲア　② ローラシア　③ ゴンドワナ　④ ウェゲナー

（2）図１中▲の **あ** ～ **お** のうち、下線部［B］の位置を示すものを、次の ① ～ ⑤ の中から１つ選べ。解答欄は、 **イ** 。

① **あ**　② **い**　③ **う**　④ **え**　⑤ **お**

（3）図１中▲の **い** ～ **お** のうち、古期造山帯に含まれる山岳を、次の ① ～ ④ の中から１つ選べ。解答欄は、 **ウ** 。

① **い**　② **う**　③ **え**　④ **お**

（4）図１中の大河川 **き** ～ **け**（河川を示す記号は河口部）について、表１のC～Eとの正しい組み合わせを、表２の ① ～ ⑥ の中から１つ選べ。解答欄は、 **エ** 。

表１　アフリカの大河川の長さ・流域面積

	河川の長さ（km）	流域面積（千㎢）
か	6,695	3,349
C	4,667	3,700
D	4,184	1,890
E	2,736	1,330

数値は、国立天文台『理科年表 2022』による。

表２（組み合わせ）

	①	②	③	④	⑤	⑥
C	**き**	**き**	**く**	**く**	**け**	**け**
D	**く**	**け**	**き**	**け**	**き**	**く**
E	**け**	**く**	**け**	**き**	**く**	**き**

（5）図１中のF～Iで示す帯状の地域について、人口の急増により樹木の過伐採や土地の過耕作、家畜の過放牧などで土地の再生が不可能な砂漠化が最も進んだ地域を、次の ① ～ ④ の中から１つ選べ。解答欄は、 **オ** 。

① F　② G　③ H　④ I

（6）図１中の河川 **か** ～ **け** について、標高 100m と標高 200m の地点を ⚑ で流路に示した。アフリカの地形の特徴で、とくに **く** で著しい２つの間隔の狭さは、流域の開発に影響を及ぼしている。この説明として適切でないものを、次の ① ～ ④ の中から１つ選べ。解答欄は、 **カ** 。

① ヨーロッパ列強の内陸部進出は 19 世紀まで急流に阻まれて進まなかった。

② 水量豊富な河川において船舶は重要な交通手段だが、外洋までは航行ができなかった。

③ 内陸の王国は河川の港湾を拠点に、プランテーション産品を輸出して繁栄した。

④ 平野に近い流域に標高差のある急流があり、水力発電用ダムに好立地だった。

〔次ページへ続く〕

（7）次の図２の **さ** ～ **す** は、アジア、アフリカ、ヨーロッパ各大陸の高度別面積割合を示している。各大陸の正しい組み合わせを、表３の ① ～ ⑥ の中から１つ選べ。解答欄は、 **キ** 。

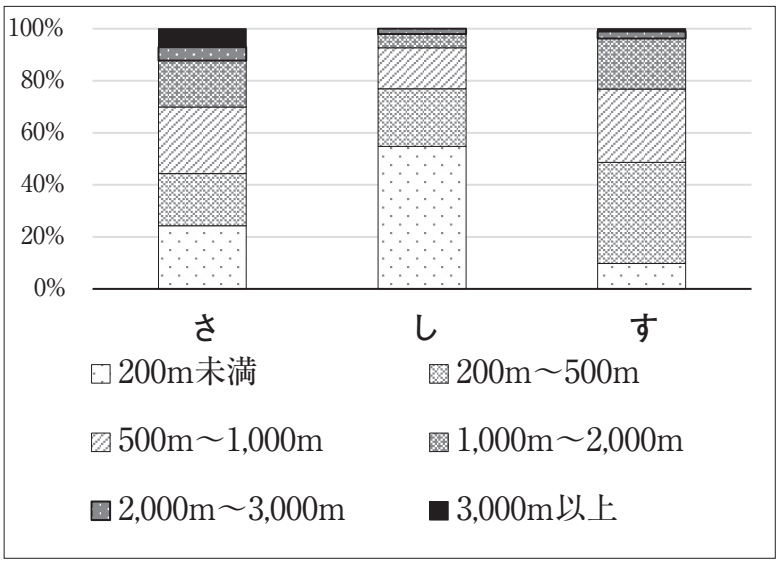

図２　アジア、アフリカ、ヨーロッパ各大陸の高度別面積割合

※一部の構成比計は 100％にならない。

数値は、二宮書店『データブック・オブ・ザ・ワールド 2022』による。

表３（組み合わせ）

	①	②	③	④	⑤	⑥
アジア	さ	さ	し	し	す	す
アフリカ	し	す	さ	す	さ	し
ヨーロッパ	す	し	す	さ	し	さ

問２　次の文章を読み、（１）～（５）に答えよ。

［J］かつて［　　］の植民地であったセネガルでは、街角で［　　］が売られている。都市部のカフェでは、このパンやクロワッサンを食べ、カフェオレを飲む朝食を楽しむことができる。これは旧植民地宗主国から直接の影響を受けた食文化である。また、植民地時代には食料生産よりも、主に搾油用の商品作物である　K　の生産を優先したことから、従来からの主食作物の生産体制づくりが進まなかった。このため、同じ国の植民地支配下に

あった、現在の＿＿Ｌ＿＿から米をセネガルに輸送し、導入した経緯があり、米は主食としての価値を高めてきた。

この国の気候区分は、主に[M]＿＿＿と＿＿＿が分布し、乾燥が著しく、在来種の稲はあったものの収量が少なかった。この欠点を改良するためにコートジボワールのアフリカ稲センターを拠点に＿＿Ｎ＿＿という、主に陸稲の品種開発・普及が進められた。2013年に、セネガル全土で稲は約436,000トンが収穫されているが、この品種の作付面積は17,425haで62,379トンが収穫されており、供給の一部を担っている。

（1）下線部［Ｊ］の２つの空欄＿＿＿について、あてはまる語の正しい組み合わせを、次の①～④の中から１つ選べ。解答欄は、ク。

① イギリス・イングリッシュ=マフィン　② ドイツ・ライ麦パン
③ デンマーク・デニッシュ　④ フランス・フランスパン

（2）空欄Ｋに入る作物名を、次の①～④の中から１つ選べ。
解答欄は、ケ。

① ジャガイモ　② ヤムいも　③ トウモロコシ　④ 落花生

（3）空欄Ｌに入る国名を、次の①～④の中から１つ選べ。
解答欄は、コ。

① インドネシア　② タイ　③ ベトナム　④ ミャンマー

（4）下線部［Ｍ］の２つの空欄＿＿＿について、該当する気候区の正しい組み合わせを、次の①～④の中から１つ選べ。解答欄は、サ。

① AwとBS　② CsとCw　③ BSとCw　④ BSとBW

（5）空欄Ｎに入る稲の品種を、次の①～④の中から１つ選べ。
解答欄は、シ。

① ジャポニカ　② ソルガム　③ ネリカ　④ ミラクルライス

問３　アフリカで産出される金鉱、原油、ダイヤモンドについて、国別の生産量をＱ～Ｓの階級区分図で示した。これらの図の正しい組み合わせを、表４の①～⑥の中から１つ選べ。解答欄は、 ス 。

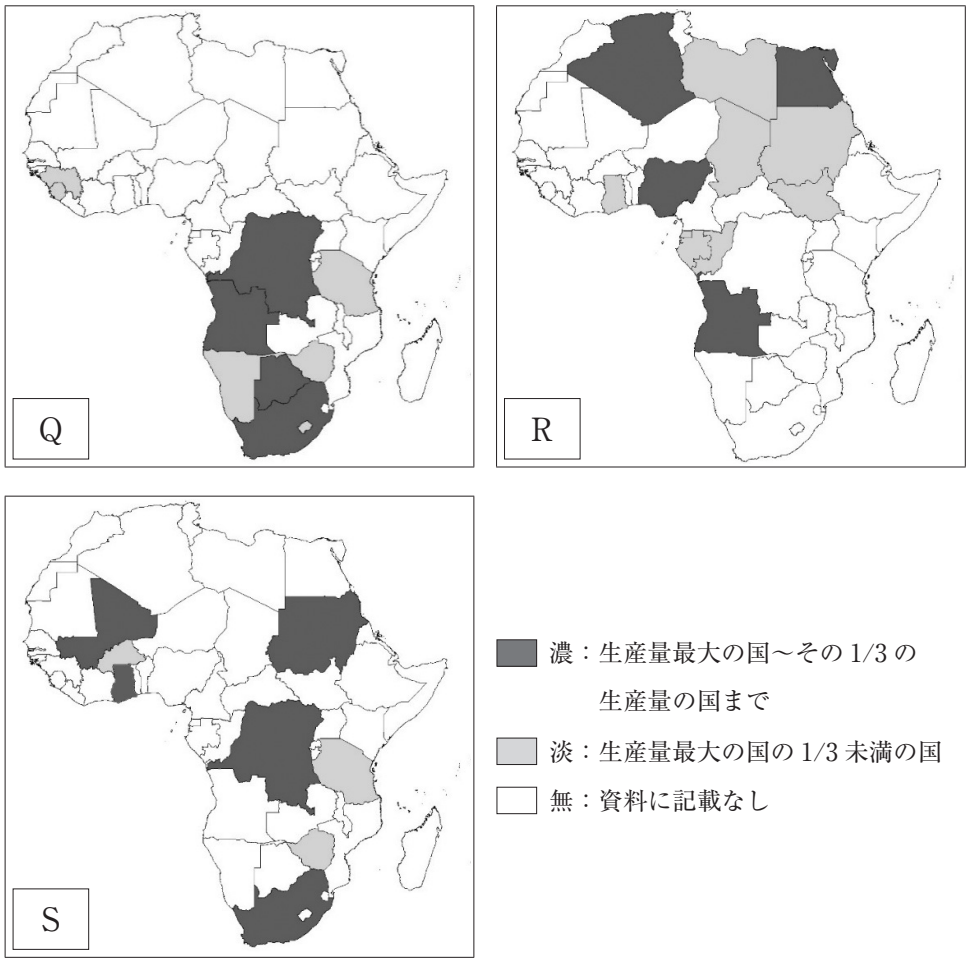

※金鉱、ダイヤモンドは 2018 年、原油は 2020 年

図３　アフリカ大陸の金鉱、原油、ダイヤモンドの生産国

数値は、矢野恒太記念会『世界国勢図会 2021/22』ほかによる。

表４（組み合わせ）

	①	②	③	④	⑤	⑥
Q	金鉱	金鉱	原油	原油	ダイヤモンド	ダイヤモンド
R	原油	ダイヤモンド	金鉱	ダイヤモンド	金鉱	原油
S	ダイヤモンド	原油	ダイヤモンド	金鉱	原油	金鉱

問４　アフリカの鉱産資源の中には、先端技術産業に欠かせないレアメタルがある。このうち、クロム、コバルト、プラチナを世界で最も多く産出する国とその生産量について、T、U、Vで示した。このことについて次の（１）･（２）に答えよ。

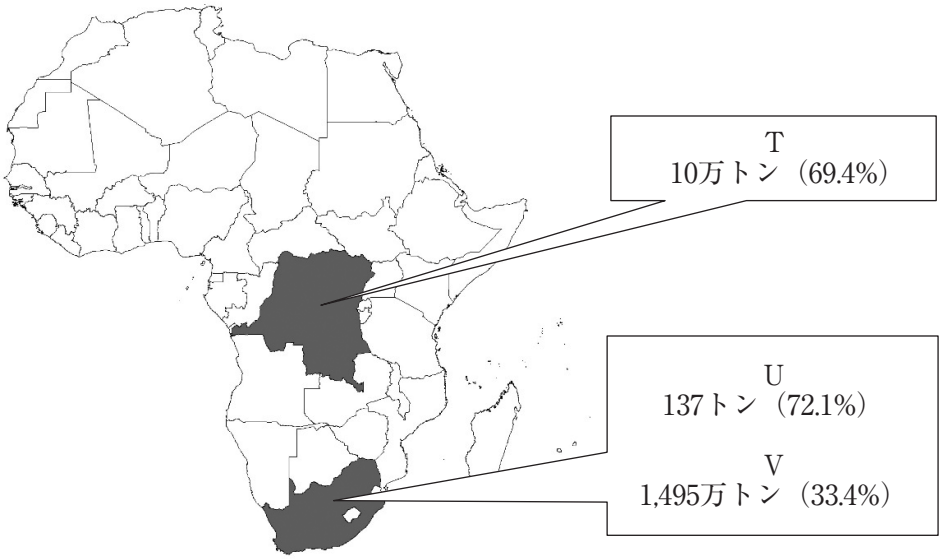

※（　）内は世界の生産量における割合

図４　レアメタル（クロム、コバルト、プラチナ）の生産国と生産量（2018 年）

数値は、矢野恒太記念会『世界国勢図会 2021/22』による。

（1）図４中のＴ、Ｕ、Ｖと、性質・用途などを記述した **た** ～ **つ** との正しい組み合わせを、表５の ① ～ ⑥ の中から１つ選べ。解答欄は、 セ 。

た　ステンレス合金などの耐熱合金や磁石・電池などの用途があり、耐食性に優れているため、鉄製品のメッキの材料としてもよく使われる。

ち　化学的に非常に安定し酸化しにくいため、排ガス浄化などの触媒の用途もあるが、貴金属としての価値も高く、宝飾品などにも利用される。

つ　銅やニッケル鉱の副産物で、ジェットエンジンなどの耐熱合金、磁石・電池の用途のほか、放射性同位体のガンマ線源として医療・食品分野でも使用される。

表５（組み合わせ）

	①	②	③	④	⑤	⑥
T	た	た	ち	ち	つ	つ
U	ち	つ	た	つ	た	ち
V	つ	ち	つ	た	ち	た

（2）図４中の２国の輸出品目別割合は次の図５の通りである。このことについて述べた次の文章の空欄Ｘ、Ｙに該当する語句の組み合わせを、解答群１の ① ～ ⑥ の中から１つ選べ。解答欄は、 ソ 。

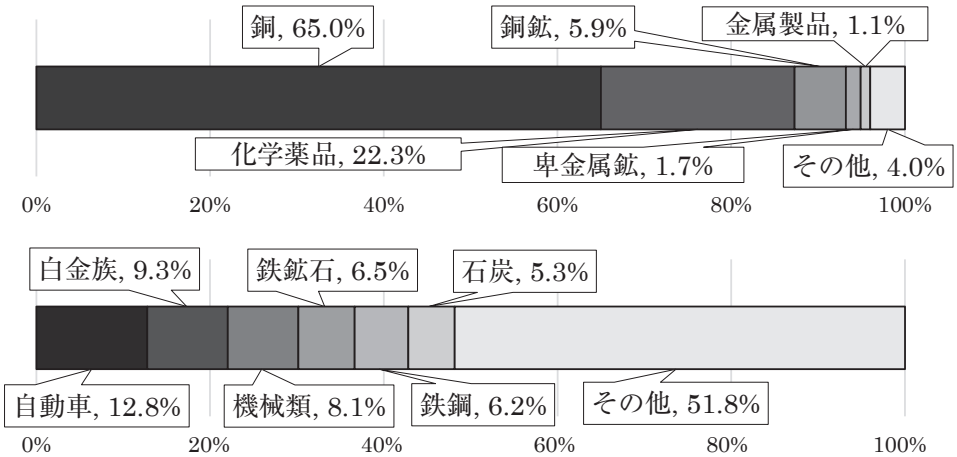

※　統計年度は、上段 2020 年、下段 2018 年

図５　図４の２国の輸出品目別割合の比較

数値は、矢野恒太記念会『世界国勢図会 2021/22』ほかによる

図４の２国や周辺諸国は鉱産資源の埋蔵量が豊富である。ところが、図５上段のグラフの国のように、もっぱら一次産品を輸出する＿＿Ｘ＿＿経済から脱却できない国もある一方、下段のグラフの国のように、工業化によって輸出品目が多様化している国もある。また、ボツワナのように、資源価格の上昇にともない、＿＿Ｙ＿＿型の工業化によって、＿＿Ｘ＿＿経済からの脱却をめざして、１人あたりＧＤＰを図５下段のグラフの国並みに上昇させた例もある。

解答群１

① Ｘ：アパルトヘイト　　Ｙ：モノカルチャー
② Ｘ：アパルトヘイト　　Ｙ：輸出指向
③ Ｘ：モノカルチャー　　Ｙ：アパルトヘイト
④ Ｘ：モノカルチャー　　Ｙ：輸出指向
⑤ Ｘ：輸出指向　　Ｙ：アパルトヘイト
⑥ Ｘ：輸出指向　　Ｙ：モノカルチャー

〔地理Ｂの問題は以上です。〕

令和５年度　政治・経済入試問題（１日目）

第１問　次の文章を読み、下の問い（問１～問８）に答えよ。

われわれ人間は、かつてギリシアの哲学者アリストテレスによって「［ア］である」と説かれたように、いずれかの社会、国家に属し生きている。そして ⓐ国家は、一定の領域をもち、その中で生活する国民を、権力により統制している。

国家の中では、互いの利害や対立を調整し決定を行う営みである政治が行われるのであり、日本では、かつてアメリカの政治家［A］が「人民の、人民による、人民のための政治」と演説したことでも有名な民主政治が行われている。

この民主政治の原則からすれば、ギリシアの都市国家アテネの民会やスイスの州民集会にみられる［X］制が望ましいが、現代の大規模化している民主主義の国では、基本的に国民が選んだ代表者による［Y］制がとられている。

現代の民主政治を支えている考え方は、近代の思想家たちにより提供され、絶対王政に対する［イ］を中心とした革命を通して次第に実現されてきた。例えば17世紀イギリスの思想家ⓑホッブズは、人間は自然状態では万人の万人に対する闘争におちいり、自らの自然権を確保できなくなるので、国家に自然権を譲渡する契約を結び、秩序を維持する必要があるとした。またイギリスの思想家［B］は、人民の代表者からなる議会が最高の権限を持つと考え、自然権を保護するよう信託された政府が、それを侵害すれば、人民には［ウ］があるとした。

［B］らの考え方に影響を受けたフランスの思想家ルソーは、人々が自然権を守るために契約を結ぶ際、自分たちの自然権を全面的に共同体（国家）に譲渡することが求められるとした。そして共同体の設立後は、すべての人民が参加する集会や投票により作られる［エ］に従う政治を説いた。またルソーは、人民に属する主権は譲渡や分割のできない絶対的なものと考え、当時のイギリスの［Z］制を批判した。この他に、17～18世紀のフランスの思想家［C］は、権力相互に抑制と均衡を図る仕組みが必要だと説いた。

このような社会契約の考え方は、［イ］らによる革命時に出されたⓒ人権宣言やその後の政治制度に影響を与えることになったのである。

問１　文章中の空欄 ア 、 イ に入れる語句として最も適当なものを、下の ① ～ ⑥ のうちからそれぞれ一つ選べ。 ア 、 イ

① 経済人　② 考える葦　③ 社会的動物
④ 大衆　⑤ 労働者　⑥ ブルジョアジー

問２　文章中の空欄 ウ 、 エ に入れる語句として最も適当なものを、下の ① ～ ⑥ のうちからそれぞれ一つ選べ。 ウ 、 エ

① 統帥権　② 抵抗権　③ 公共の福祉
④ 執行権　⑤ 一般意志　⑥ 多数者の専制

問３　文章中の空欄 A 、 B 、 C に入れる人物名として最も適当なものを、下の ① ～ ⑨ のうちから一つ選べ。

A は オ 、 B は カ 、 C は キ

① ワシントン　② ロック　③ ローズベルト
④ モンテスキュー　⑤ ブライス　⑥ チャーチル
⑦ サルトル　⑧ ベンサム　⑨ リンカーン

問４　文章中の空欄 X と Y に入れる語句の組み合わせとして最も適当なものを、下の ① ～ ④ のうちから一つ選べ。 ク

① X－地方分権　Y－中央集権
② X－間接民主　Y－直接民主
③ X－全会一致　Y－多数決
④ X－直接民主　Y－間接民主

問５　文章中の空欄 Z に入れる語句として最も適当なものを、下の ① ～ ④ のうちから一つ選べ。 ケ

① 大統領　② 君主　③ 議会　④ 共和

問６　下線部ⓐについて、今日では国家に不可欠とされる、主権という概念を提唱した思想家名として最も適当なものを、下の ① ～ ④ のうちから一つ選べ。 コ

① ボーダン　　② エドワード・コーク
③ マックス・ウェーバー　　④ ブラクトン

問７　下線部ⓑについて、ホッブズの著書名として最も適当なものを、下の ① ～ ④ のうちから一つ選べ。 サ

① 社会契約論　② リバイアサン　③ 法の精神　④ 国家論

問８　下線部ⓒに関連して、次の文章を記す人権宣言名 あ と文章中の空欄 い に入れる語句の組合せとして最も適当なものを、下の ① ～ ⑥ の中から一つ選べ。 シ

> われわれは、自明の真理として、すべての人は平等に造られ、造物主によって、一定の奪いがたい天賦の権利を付与され、そのなかに生命、自由および幸福の追求の含まれることを信ずる。また、これらの権利を確保するために人類のあいだに い が組織されたこと、そしてその正当な権力は被治者の同意に由来するものであることを信ずる。そしていかなる政治の形体といえども、もしこれらの目的を毀損するものとなった場合には、人民はそれを改廃し、かれらの安全と幸福とをもたらすべしとみとめられる主義を基礎とし、また権限の機構をもつ、新たな い を組織する権利を有することを信ずる。
>
> 高木八尺・末延三次・宮沢俊義編『人権宣言集』より

① あ－マグナ・カルタ　　い－社会
② あ－アメリカ独立宣言　　い－社会
③ あ－フランス人権宣言　　い－社会
④ あ－マグナ・カルタ　　い－政府
⑤ あ－アメリカ独立宣言　　い－政府
⑥ あ－フランス人権宣言　　い－政府

第２問　次の文章を読み、下の問い（問１～問７）に答えよ。

日本での司法の役割は、憲法や法律に基づく裁判を行い、国民の権利を保障し、社会の法秩序を守り、［ア］を実現することである。

日本国憲法は公正な裁判が行われるよう、司法権が裁判所に属すると定め、裁判官が他の裁判官や国会、内閣から干渉を受けることがないように、司法権の独立を確立している。この原則は、ⓐ大津事件のように、大日本帝国憲法下にもあったが、日本国憲法では強化されている。

例えば裁判官は、その職業的な良心に従い、この憲法及び法律にのみ従って裁判するよう求められており、そのために裁判官としての身分保障がなされている。より具体的には、裁判官の罷免は制限され、一定の年齢に達するまで、その身分と相当額の報酬が保障されている。

また司法権の独立を図るため、「［A］」（日本国憲法第76条第２項）を設置することは認められていない。さらに最高裁判所には、訴訟に関する手続きなどについて［X］権が認められている。他に下級裁判所の裁判官の任命については、［B］が示す名簿に従って内閣が行うことになっている。

裁判所は最高裁判所とその他の下級裁判所によって構成される。また裁判は公正さを確保するため、ⓑ原則として公開の法廷で行われ、国民の権利を保障するために、判決に不服がある場合、上級の裁判所に裁判のやり直しを求める［イ］ができ、同一事件について３回まで裁判を受けることができる。さらに［ウ］を防止するために、判決が確定して裁判が終了した場合でも、裁判をやり直す制度が設けられている。

日本国憲法は、全ての裁判所に［Y］権を与えている。また最高裁判所は、この権限を持つ「［C］」（日本国憲法第81条）と規定され、「憲法の番人」と呼ばれることもある。なお、この権限に関して、ⓒ統治行為論という考え方もある。

今日の司法制度は、重大な［エ］事件に国民が裁判員として参加するなど、主権者である国民の司法への意識を高める改革が進んでいる。

問１　文章中の空欄 ア に入れる語句として最も適当なものを、下の ① ～ ④ のうちから一つ選べ。 ア

① 立憲君主制　② 人の支配　③ 法の支配　④ 公共の福祉

問２　文章中の空欄 イ 、 ウ 、 エ に入れる語句として最も適当なものを、下の ① ～ ⓪ のうちから一つ選べ。 イ 、 ウ 、 エ

① 棄却　② 懲戒処分　③ 執行猶予　④ 行政　⑤ 民事
⑥ 上訴　⑦ 刑事　⑧ 推定無罪　⑨ 再審　⓪ えん罪

問３　文章中の空欄 A 、 B 、 C に入れる語句として最も適当なものを、下の ① ～ ⑧ のうちから一つ選べ。

A は オ 、 B は カ 、 C は キ

① 高等裁判所　② 最高裁判所　③ 行政裁判所　④ 特別裁判所
⑤ 公聴会　⑥ 国際司法裁判所　⑦ 終審裁判所　⑧ 憲法裁判所

問４　文章中の空欄 X 、 Y に入れる語句として最も適当なものを、下の ① ～ ⑥ のうちから一つ選べ。 X は ク 、 Y は ケ

① 免責　② 直接請求　③ 国政調査
④ 国民審査　⑤ 違憲法令審査　⑥ 規則制定

問５　下線部ⓐの大津事件において、司法権の独立を守ったとされる人物名として最も適当なものを、下の ① ～ ④ のうちから一つ選べ。 コ

① 森戸辰男　② 児島惟謙　③ 植木枝盛　④ 伊藤博文

問６　下線部ⓑについて、裁判官の全会一致で、裁判の一部を公開しないことができる場合として、最も適当なものを、下の ① ～ ④ のうちから一つ選べ。

サ

① 出版に関する犯罪
② 政治犯罪
③ 善良の風俗を害するおそれがある場合
④ 国民の権利が問題となっている場合

問７　下線部ⓒについて、この考え方の説明として最も適当なものを、下の①～④のうちから一つ選べ。 シ

① 同じ事件について、同じ罪状で再度裁判をしてはならないという考え方

② ある行為が起きた時には法律がなかったのに、その後で法律を定め、その行為を罰してはならないという考え方

③ 何を犯罪とし、どのような刑罰を科すかは、議会の定めた法律で事前に定めなければならないという考え方

④ 国会や内閣が高度な政治的判断により行う行為は、審査の対象とならないという考え方

〔次ページへ続く〕

第３問　次の文章を読み、下の問い（問１～問５）に答えよ。

経済を理解するための重要な概念に、労働や資本、土地があり、［ア］とよばれ、これらを取引する市場がある。また、［ア］を用いて、生産された財･サービスを取引する市場も存在する。市場では、需要する側と供給する側が存在し、相互の作用により、価格と取引数量が決定するとされている。これらの取引を媒介するものが、［イ］となる。その流れの一部は政府の［ウ］となり、ⓐ様々な政策に用いられる。［ウ］の一部にⓑ租税がある。その租税は、法律に従い徴収される。同様にその他諸政策の実施についても、政府はⓒ事前に行われる議会での議決に従わなければならない。

財・サービスを生産する経済主体としてのⓓ企業の活動を詳しく見ていくと、資金を用いて機械・設備や工場などを、生産・流通・販売を念頭に適した場所に設置して生産設備を整え、労働力を雇い、原材料を仕入れて財･サービスを生産、販売して、投下した資金以上の額を回収しようとする。企業が生産をする場合、多額の資金の調達が必要となる。市場における企業の活動を財・サービスの生産にかかる費用面からモデル化し図で表したものが、供給曲線となる。

家計は、賃金を得るために企業に労働力を供給したり、企業の所有者になって配当を受け取ったり、土地を提供して地代を得たりする。また、受け取った所得を銀行に預けたり、債券を購入したりする。このように家計は、所得を得て、さまざまな判断を通じて、消費や貯蓄を行っている。

問１　空欄［ア］～［ウ］に入れる用語として適当なものを、下の①～⑨のうちから一つ選べ。［ア］、［イ］、［ウ］

①　内部留保	②　国富	③　貨幣
④　歳入	⑤　社会福祉	⑥　歳出
⑦　中間生産物	⑧　生産要素	⑨　原材料

問２　下線部ⓐに関連して、その実施の金銭的裏付けとなる予算に関する説明として明らかに誤っているものを、下の ① ～ ④ のうちから一つ選べ。

エ

① 本予算は国会の審議・議決を経て新年度から実施される。

② 衆議院の優越があるため、予算の先議権は、参議院にある。

③ 年度途中で、本予算への修正を国会の議決を経て組む予算が補正予算である。

④ 国の予算には、一般会計予算、特別会計予算、政府関係機関予算がある。

問３　下線部ⓑに関連して、消費税の基本的仕組みについて、次の表とその説明文を参考にして、後の小問(1)～小問(5)に解答せよ。

表　消費税の基本的仕組み

	売上高	仕入額	消費税率	税請求額*	納税額
農　業	500	0	10%	50	ケコ
製造業	700	500	10%	70	20
小売業	1000	700	10%	100	30
				納税総額	100

表は、売上高から求められる税請求額から仕入額の税請求額を差し引いた金額が、消費税の納税額となる消費税の基本的な仕組みを表しています。ここでは、製造業は、農業から 500 を仕入れ 200 の付加価値を生み出し、700 の売上高となっています。また、小売業も同様に、製造業から 700 を仕入れ オカキ の付加価値を生み出し、1000 の売上高となっています。

農業を見ると、売上高から求められる税請求額 50 から仕入額にかかる消費税分 ク を差し引き、消費税の納税額 ケコ となっています。

製造業も同様に、消費税の納税額 20 となり、税請求額から仕入れ時にすでに支払った消費税分を差し引いた金額の式（700 × 0.1 − 500 × 0.1）で求められ、小売業も同様に計算されます。

ここで、農業・製造業への消費税率は 10% のまま、小売業への消費税率

の軽減税率** 8％の適用が決まったとします。その結果、小売業が消費者に求める税請求額は、 サシ となり、小売業の納税額は、 スセ となります。

* 税請求額は、売上高×消費税率で求められる

** 消費税率の軽減税率とは…特定の業種や財・サービスに低い税率を課すこと

小問(1)　文章中の空欄 オカキ に当てはまる最も適当な数値を記入せよ。

小問(2)　文章中の空欄 ク に当てはまる最も適当な数値を記入せよ。

小問(3)　文章中の空欄 ケコ に当てはまる最も適当な数値を記入せよ。

小問(4)　文章中の空欄 サシ に当てはまる最も適当な数値を記入せよ。

小問(5)　文章中の空欄 スセ に当てはまる最も適当な数値を記入せよ。

問４　下線部ⓒに関連して、議会の議決を尊重している考え方として、適当でないものを、下の ① ～ ④ のうちから一つ選べ。 ソ

① 修正資本主義

② 財政民主主義

③ 罪刑法定主義

④ 租税法律主義

問５　下線部ⓓに関連して、後の小問(1)、小問(2)に解答せよ。

小問(1)　株式会社の特徴として、明らかに誤っているものを、下の ① ～ ④ のうちから一つ選べ。 タ

① 会社が倒産した時の負債に対し無限責任を負う株主が所有者である。

② 経営者としてCEOなどが置かれ所有と経営の分離がなされている。

③ 出資者は、出資比率などに応じて利潤の配当を受ける権利を持つ。

④ 株式会社では、株主総会で会社の経営にあたる取締役を選任する。

小問(2)　現代の私企業の行う多様な活動として、明らかに誤っているものを、下の ① ～ ⑤ のうちから一つ選べ。 チ

① リストラクチャリングを行う。

② アウトソーシングを行う。

③ M＆Aによりコングロマリットを進める。

④ オンブズパーソン制度の導入を進める。

⑤ デファクトスタンダードを構築する。

第４問　次の文章を読み、下の問いに（問１～問９）答えよ。

国による庶民（病人、貧困者）の救済は近代に入る以前から行われ、ⓐイギリスの救貧法がその代表例のひとつである。19 世紀末、ドイツの［ア］が世界初の社会保険制度を作った。しかしこれは、国家による慈善や恩恵、労働運動の鎮静化という側面があり、社会主義者鎮圧法の「ムチ」に対する「アメ」という性格のものであった。第一次世界大戦後には、生存権の思想とⓑナショナル・ミニマムの考えが広がり、第二次世界大戦前後、体系化された社会保障制度が多くの国で重要な政策として認識されるようになった。アメリカでは、労働者の保護という観点から、［イ］大統領によるニューディール政策の一環としてⓒ連邦社会保障法が制定された。さらに、国民の立場に立ち、国民の生存権を保障するという意味での初の近代的社会保障制度は、イギリスの労働党内閣によるⓓベバリッジ報告に基づく体系的なものであり、この制度は各国の社会保障制度の模範となった。

現在の日本の社会保障制度は、［ウ］の生存権の保障の理念に基づいて、整備拡充が進められ、社会保険、公的扶助、社会福祉、公衆衛生の４つの柱から成り立っている。ⓔ社会保険とは、国民が疾病・老齢・失業・労働災害などにあった場合、一定の基準を満たせば、現金や医療サービスなどが給付される、［エ］の公的保険である。ⓕ公的扶助とは、生活に困窮している人々に対し、国が生活を保障するもので、生活・教育・医療・住宅・介護・出産・生業・葬祭の８つの扶助を行っている。社会福祉とは、生活に不安を抱える児童・高齢者・母子家庭・障がい者などに対し、［オ］や生活援助を行うため、施設やサービスの提供など、主として非金銭的な支援をする制度である。公衆衛生とは、［カ］、早期発見、治療、および衛生教育などによって、地域住民の健康増進を図るとともに、地域社会の環境衛生の改善を図ろうとするものである。

ⓖ日本は、少子高齢化が進んでおり、今後の社会保障制度に重大な影響を及ぼす可能性があると考えられている。

問１　文章中の空欄 ア ～ ウ に入れる語句として、最も適当なものを、下の ① ～ ⑨ のうちからそれぞれ選べ。 ア 、 イ 、 ウ

① 日本国憲法第９条　② ローズベルト　③ ケネディ
④ ビスマルク　⑤ 日本国憲法第 25 条　⑥ フーバー
⑦ 日本国憲法第 13 条　⑧ エンゲルス　⑨ マルクス

問２　文章中の空欄 エ ～ カ に入れる語句として、最も適当なものを、下の ① ～ ⑨ のうちからそれぞれ選べ。 エ 、 オ 、 カ

① 自立支援　② 自由選択　③ 任意加入
④ 疾病の予防　⑤ 地域支援　⑥ 消費の喚起
⑦ 強制加入　⑧ 事業の促進　⑨ 選挙支援

問３　下線部ⓐの語句についての説明として、明らかに誤っているものを、下の ① ～ ④ のうちから一つ選べ。 キ

① 貧民救済の最初の統一的な法制であり、社会福祉の起源ともいわれる。
② 現在の公的扶助の原型といわれ、貧困者への慈善的救済に限られていた。
③ 貧窮する労働者に団体交渉権を与え、なおかつ労働者災害法を適用した。
④ 労働能力のない貧民を救済する一方、労働能力のある者に対して強制労働を課すなど治安維持の目的が中心であった。

問４　下線部ⓑの語句についての説明として最も適当なものを、下の ① ～ ④ のうちから一つ選べ。 ク

① 国家が国民に保障すべき最低限度の生活水準のこと。
② 国家の歴史的建造物を補助金などを使って保存すること。
③ 国家が国民に最低限度の国防・納税の義務を課すこと。
④ 国家が財政支出を最低限度に抑えること。

問５　下線部ⓒについての説明として最も適当なものを、下の ① ～ ④ のうちから一つ選べ。 ケ

① ケインズの経済理論に基づき、有効需要拡大政策を採用し、景気回復を図った。

② 高齢者、失業者、働き手を亡くした遺族等を対象に公的保険制度を打ち立てた。

③ 全国民を対象とする包括的な医療保険制度を導入した。

④ 男女雇用機会均等法や育児・介護休業法が制定された。

問６　下線部ⓓの語句について説明した文章で、明らかに誤っているものを、下の ① ～ ④ のうちから選べ。 コ

① ILO によるフィラデルフィア宣言にもとづいて作成された報告書であり、社会保障を受けることは、人間の基本的権利だという考えを定着させた。

② 「ゆりかごから墓場まで」をスローガンとし、国がすべての国民に対して一生の生活保障の責任を持つという理念に基づいた社会保障制度を構築しようとした。

③ 給付・拠出均一主義、ナショナル・ミニマムの保障、全国民を対象とする包括給付の三原則の上に立った社会保障制度の設計を行った。

④ イギリスの経済学者のベバリッジを委員長とする社会保障制度改革委員会が政府の諮問に応えて提出した報告書である。

問７　下線部ⓔについての説明として、明らかに誤っているものを、下の ① ～ ④ のうちから一つ選べ。 サ

① 日本の社会保険の種類は、医療保険、年金保険、雇用保険、労災保険、介護保険の５つである。

② 社会保険の費用は、被保険者、事業主、政府が負担する。ただし、業務上の災害を保障する労災保険は事業主のみが負担する。

③ 日本の社会保険では、全国民をなんらかの制度に加入させる「国民皆保険」・「国民皆年金」制度が実現している。

④　全国民を平等に扱うという社会保険の基本的な考え方にしたがい、保険サービス・保険給付金の額は全て同じである。

問８　下線部ⓕについての説明として最も適当なものを、下の ① ～ ④ のうちから一つ選べ。 シ

①　公的扶助における生活保護において、その給付は収入が最低生活費に満たない場合に、個人単位で適用され、それに先立つ親族からの扶養は無関係である。

②　育児休業制度は、地域保健法によって設置された各自治体の保健所や保健センターが中心となり、運営されている。

③　生活保護よりも給付の基準が緩やかな児童手当などの社会手当があり、一定の所得制限の下、子供のいる世帯に支給される。

④　公的扶助における育児休業制度は、出産・育児を行う女性に対する制度であり、一定の条件の下、休暇を取得できる制度である。

問９　下線部ⓖについて説明した次の文章の空欄に最も適当なものを、下の ① ～ ⑧ のうちから一つ選べ。 ス 、 セ

> 近年、日本の子供の数は年々減少してきており、一人の女性が一生のうちに平均して何人の子供を出産するかを示す ス は低下傾向にある。また、65 歳以上の老年人口が総人口に占める割合である セ がますます高まっている。これらによって、社会保障給付が増大し、税金や保険料などの財源の負担が国民に重くのしかかってくる。今後、社会保障を充実させつつ、どのようにして増大する財源を賄(まかな)っていくかが、これからの日本社会の大きな課題となってくるであろう。

①　出産減少率　　②　合計特殊出生率　　③　高齢化率

④　介護保険加入率　　⑤　高齢過疎化率　　⑥　人口減少化率

⑦　出生性比　　⑧　生産年齢人口比率

〔政治・経済の問題は以上です。〕

令和５年度　簿記入試問題（１日目）

（解答用紙には番号のみマークすること）

第１問　次の(1)～(6)は、取引とその仕訳の一部を示したものである。解答記号にあてはまる最も適切な勘定科目を、それぞれの解答群の中から１つずつ選べ。ただし、同じものを何度選んでもよい。なお、（　　）は各自で推定すること。また、商品に関する勘定は３分法によること。解答欄は、［ア］～［ス］。

(1)　東西商店は、かねて礼文商店に注文してあった商品 *¥5,400,000* が到着したので、さきに受け取っていた船荷証券と引き換えに引き取った。なお、引取費用 *¥120,000* を小切手＃ 38 を振り出して支払った。

（借）	（　　）	*5,520,000*	（貸）	［ア］	*5,400,000*
				（　　）	*120,000*

(2)　浅草商店は試用販売のため、Ａ商品 *¥1,270,000* とＢ商品 *¥1,230,000* を札幌商店に送付していたが、本日、同店からＢ商品を買い取るとの通知を受け、代金 *¥1,230,000* は掛けとし、Ａ商品は返送された。ただし、商品の発送時に次のとおり対照勘定を用いて備忘記録をしている。

（借）（試用販売契約）*2,500,000*　/　（貸）（試用仮売上）*2,500,000*

（借）	［イ］	*1,230,000*	（貸）	（　　）	*1,230,000*
	（　　）	*2,500,000*		（　　）	*2,500,000*

［ア］・［イ］の解答群

⓪　現金	①　当座預金	②　積送品
③　未着商品	④　未収金	⑤　売掛金
⑥　試用販売契約	⑦　買掛金	⑧　試用仮売上
⑨　仕入		

(3) 新宿商店は、かねて売掛金のある山梨商店あて、新宿商店受け取りの為替手形＃３、*¥1,800,000* を振り出し、山梨商店の引き受けを得た。

〔新宿商店の仕訳〕

(借)	ウ	*1,800,000*	(貸)	(	) *1,800,000*

〔山梨商店の仕訳〕

(借)	(	) *1,800,000*	(貸)	エ	*1,800,000*

(4) 千代田商店は、仕入先愛媛商店に対する買掛金 *¥2,500,000* の支払いのために、得意先恵比寿商店振り出し、千代田商店あての約束手形＃29、*¥500,000* を裏書譲渡し、残額の *¥2,000,000* はかねて売掛金のある得意先新橋商店あての為替手形＃３、*¥2,000,000* を振り出し、同店の引き受けを得て、愛媛商店に郵送した。なお、保証債務の時価は、手形額面金額の２％とする。

〔千代田商店〕

(借)	(	) *2,500,000*	(貸)	(	) *500,000*
				オ	*2,000,000*
	カ	*10,000*		(	) *10,000*

ウ ～ カ の解答群

⓪ 現金	① 受取手形	② 積送品
③ 未着商品	④ 買掛金	⑤ 売掛金
⑥ 支払手形	⑦ 保証債務	⑧ 保証債務費用
⑨ 仕入		

⑸－①　株式会社赤坂商事（決算年１回　３月 31 日）は、期首（４月１日）に次の条件で額面総額 *¥10,000,000* の社債を発行し、払込金は原宿信用金庫の当座預金とした。なお、この社債の発行費用 *¥300,000* は、小切手＃ 785 を振り出して支払った。

〔発行条件〕

・払込金額　額面 *¥100* につき *@¥95.00*
・償還期限　５年　　・年利率　1.0%
・利 払 い　年２回（3 月 31 日と 9 月 30 日）

（借）	（　　）	*9,500,000*	（貸）	キ	*9,500,000*
	（　　）	*300,000*		（　　）	*300,000*

⑸－②　株式会社赤坂商事は、９月 30 日に、⑸－①の社債 *¥10,000,000* について、半年分の利息を小切手＃ 812 を振り出して支払った。

（借）	ク	*50,000*	（貸）	（　　）	*50,000*

⑸－③　株式会社赤坂商事は、⑸－①の社債発行後、３年目の初頭に全額の *¥10,000,000* を額面 *¥100* につき *¥99.00* で買入償還し、小切手＃ 901 を振り出して支払った。ただし、償還直前の額面総額に対する社債の帳簿価額は、*¥9,700,000* である。

（借）	（　　）	*9,700,000*	（貸）	（　　）	*9,900,000*
	ケ	*200,000*			

キ ～ ケ の解答群

⓪　未払金	①　当座預金	②　社債発行費
③　社債利息	④　社債	⑤　株式払込剰余金
⑥　未収金	⑦　減価償却費	⑧　社債償還益
⑨　社債償還損		

(6) 卸売業を営む日暮里商会は、販売用キャビネットをインターネットで櫻川電器に注文し、本日、品物が入荷した。その際、次の領収書（No.28）を受け取った。なお、配送料を含む代金 *¥850,000* は、注文した時に送金小切手＃ 290 を郵送している。よって、①～④の時点での日暮里商会と櫻川電器の仕訳を示しなさい。

領　収　書　　No.28

令和○年 1 月 20 日

日暮里商会 株式会社　御中

櫻川電器 株式会社

収入印紙　櫻川

代表取締役　丸 田 圭 吾　櫻川

次の金額を送金小切手＃ 290 で領収いたしました。

領収金額　¥850,000 ＊

（内訳）

品　名	数 量	単　価	金　額
キャビネット（W 180 － 200）	*5*	*160,000*	*800,000*
配送料	*5*	*10,000*	*50,000*
		合　計	*¥850,000*

(6)－①　日暮里商会が櫻川電器へ送金小切手＃ 290、*¥850,000* を郵送したとき。

〔日暮里商会の仕訳〕

（借）	コ	*850,000*	（貸）	（　　）	*850,000*

(6)－②　日暮里商会に注文していたキャビネットが届いたとき。

〔日暮里商会の仕訳〕

（借）	サ	*850,000*	（貸）	（　　）	*850,000*

⑹－③　櫻川電器が日暮里商会から送金小切手＃290、*¥850,000* を受け取り、領収書を郵送したとき。

〔櫻川電器の仕訳〕

（借）	（　　）	*850,000*	（貸）	シ	*850,000*

⑹－④　櫻川電器がキャビネットを発送し、日暮里商会から商品が届いた旨の連絡を受けたとき。ただし、商品売買は３分法による。

〔櫻川電器の仕訳〕

（借）	（　　）	*850,000*	（貸）	ス	*850,000*

コ ～ ス の解答群

⓪　仕入	①　売上	②　備品
③　前払金	④　仮払金	⑤　仮受金
⑥　前受金	⑦　当座預金	⑧　機械装置
⑨　消耗品費		

第２問　次の問１と問２について、計算表または文章中の解答記号に入る最も適切な語句・金額を、それぞれの解答群の中から１つずつ選びなさい。同じものを何度選んでもよい。解答欄は、［ア］～［ケ］。

問１　次に示す難波商店（個人企業）の第 10 期と第 11 期の計算表の解答記号に入る最も適切な金額をそれぞれの解答群の中から１つずつ選びなさい。

難波商店の計算表　　単位：円

	第 10 期決算	第 11 期決算
期首商品棚卸高	200,000	300,000
純　仕　入　高	700,000	［エ］
期末商品棚卸高	300,000	250,000
売　上　原　価	［ア］	1,600,000
純　売　上　高	850,000	2,800,000
売上総利益	［イ］	［オ］
その他の収益	900,000	［カ］
その他の費用	200,000	450,000
当期純利益	［ウ］	1,700,000

［ア］～［ウ］の解答群

⓪　50,000	①　150,000	②　250,000
③　350,000	④　400,000	⑤　500,000
⑥　600,000	⑦　700,000	⑧　950,000
⑨　1,100,000		

［エ］～［カ］の解答群

⓪　850,000	①　950,000	②　1,000,000
③　1,150,000	④　1,200,000	⑤　1,250,000
⑥　1,550,000	⑦　1,600,000	⑧　1,650,000
⑨　2,150,000		

問２　次の文章中の解答記号に入る最も適切な用語を、解答群の中から１つずつ選びなさい。

建物・備品・車両運搬具などの［キ］は、使用しているうちにその価値が減少する。また、時の経過などによっても価値が減少する。そこで、決算においては、一年間の価値の減少額を費用として計上し、その減少額を固定資産勘定の帳簿価額から差し引く。この手続きを減価償却という。補助元帳である［ク］を設けて固定資産の管理をするのが一般的である。

この計算方法には色々あるが、最も簡単な方法は、毎期一定額を償却する［ケ］である。この方法は、取得原価から残存価額を差し引いた額を耐用年数で割って、毎年の減価償却費を計算する。

［キ］～［ケ］の解答群

⓪　固定資産台帳	①　定率法	②　定額法
③　転売価額	④　実地棚卸高	⑤　当座資産
⑥　固定資産	⑦　流動資産	⑧　生産高比例法
⑨　一般管理費元帳		

第３問　商品の卸売業を営む品川商店は、３伝票制を採用しており、令和○年１月の各伝票から仕訳集計表（月計表）を完成し、総勘定元帳（一部）に転記しなさい。

資料１ ～ 資料３ によって、問１と問２に答え、 資料４ と 資料５ の解答記号に入る最も適切な金額をそれぞれの解答群の中から１つ選びなさい。同じものを何度選んでもよい。なお、空欄の金額は各自で推定すること。

解答欄は、 ア ～ ケ 。

資料１　１月の入金伝票（８枚）

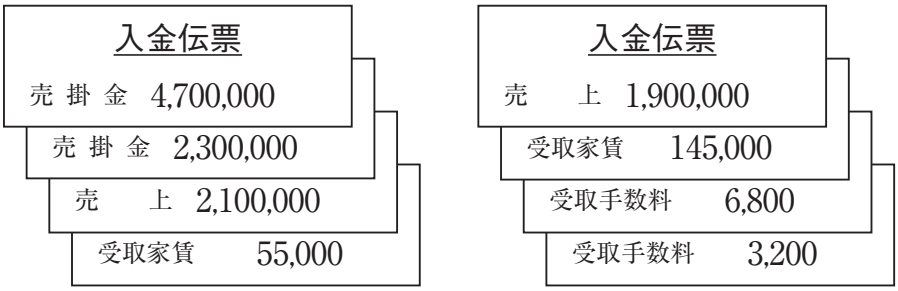

資料２　１月の出金伝票（12 枚）

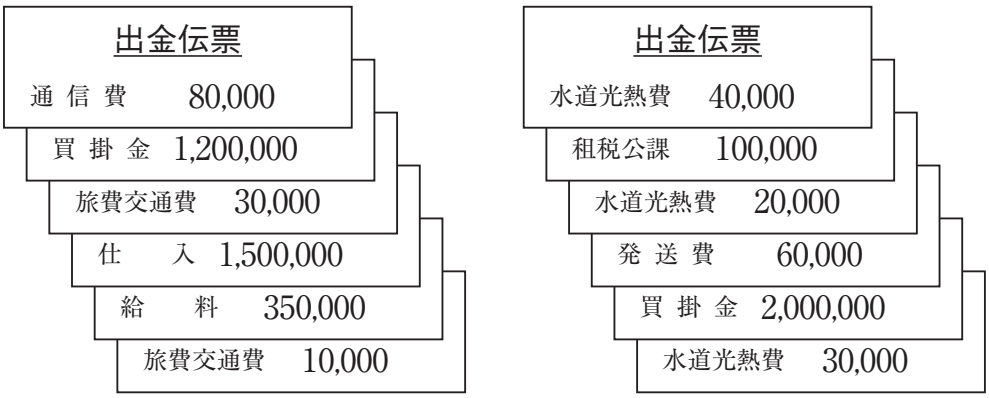

資料３　１月の振替伝票（５枚）

振替伝票（借方）	振替伝票（貸方）
仕　入　1,500,000	買掛金　1,500,000
売掛金　3,200,000	売　上　3,200,000
買掛金　100,000	仕　入　100,000
売　上　200,000	売掛金　200,000
買掛金　150,000	仕　入　150,000

資料４

仕訳集計表

令和○年１月31日　　No.1

借　方	元丁	勘定科目	元丁	貸　方
ア		現金		イ
	⌒	売掛金	⌒	ウ
エ	省	買掛金	省	
200,000		売上		オ
		受取家賃		
		受取手数料		
カ		仕入		
350,000		給料		
60,000		発送費		
	略	旅費交通費	略	
80,000	⌣	通信費	⌣	
		水道光熱費		
100,000		租税公課		

資料５

総 勘 定 元 帳

受 取 家 賃 20

	1/31　集計表（No.1）　キ

受 取 手 数 料 21

	1/31　集計表（No.1）　ク

旅 費 交 通 費 30

1/31　集計表（No.1）　ケ	

問１　資料４ の仕訳集計表の解答記号に入る最も適切な金額を、それぞれの解答群の中から１つずつ選びなさい。

ア ～ ウ の解答群

⓪　980,000	①　990,000	②　3,200,000
③　3,300,000	④　3,740,000	⑤　5,420,000
⑥　6,300,000	⑦　7,200,000	⑧　10,200,000
⑨　11,210,000		

エ ～ カ の解答群

⓪　150,000	①　180,000	②　250,000
③　1,500,000	④　2,400,000	⑤　3,000,000
⑥　3,450,000	⑦　4,200,000	⑧　4,550,000
⑨　7,200,000		

問２　資料５ の総勘定元帳の解答記号に入る最も適切な金額を、次の解答群の中から１つずつ選びなさい。

キ ～ ケ の解答群

⓪　10,000	①　20,000	②　30,000
③　40,000	④　50,000	⑤　60,000
⑥　90,000	⑦　200,000	⑧　280,000
⑨　820,000		

第４問　本店集中計算制度を採用しているＡ社及びＢ社には、それぞれ複数の支店がある。次の 資料Ⅰ と 資料Ⅱ に示す取引について、それぞれの店の仕訳を示しなさい。ただし、商品に関する勘定はすべて３分法によって記帳している。なお、（　　）は各自で推定すること。

解答記号に入る最も適切な勘定科目をそれぞれの解答群の中から１つ選べ。同じものを何度選んでもよい。解答欄は、 ア ～ カ 。

資料Ⅰ

Ａ社の岡山支店は、松山支店に送金小切手＃ 901、*¥1,200,000* を送り、米子支店に送金小切手＃ 902、*¥800,000* を送った。それぞれの支店はこれを受け取り、Ａ社の本店はこの通知を受けた。

	借方		貸方	
岡山支店	ア	*2,000,000*	（　　）	*2,000,000*
松山支店	イ	*1,200,000*	（　　）	*1,200,000*
米子支店	（　　）	*800,000*	（　　）	*800,000*
本　　店	（　　）	*1,200,000*	ウ	*2,000,000*
	（　　）	*800,000*		

ア ～ ウ の解答群

⓪　現金	①　当座預金	②　岡山支店
③　松山支店	④　米子支店	⑤　仮受金
⑥　借入金	⑦　本店	⑧　小口現金
⑨　貸付金		

資料Ⅱ

Ｂ社の出雲支店は、かねて下関支店が買掛金の支払いのために仕入先の高知商店あてに振り出していた約束手形＃７、*¥1,500,000* を小切手＃ 102 を振り出して支払った。また、同じく出雲支店は、笠岡支店の仕入先である神戸商店に対する買掛金 *¥500,000* を小切手＃ 103 を振り出して支払った。出雲支店はこの２件の支払いについてＢ社の本店に通知した。

	借方		貸方	
出雲支店	エ	*2,000,000*	（　　）	*2,000,000*
下関支店	（　　）	*1,500,000*	（　　）	*1,500,000*
笠岡支店	オ	*500,000*	（　　）	*500,000*
本　　店	（　　） （　　）	*1,500,000* *500,000*	カ	*2,000,000*

エ ～ カ の解答群

⓪　神戸商店	①　下関支店	②　笠岡支店
③　買掛金	④　支払手形	⑤　受取手形
⑥　当座預金	⑦　売掛金	⑧　本店
⑨　出雲支店		

第５問　安佐南商店（個人企業　決算年１回　12 月 31 日）は、決算日を迎えた。よって、次の【資料Ⅰ】と【資料Ⅱ】に基づいて、問１～問４に答えなさい。ただし、商品に関する勘定はすべて３分法によって記帳している。空欄の金額は各自で推定すること。

解答記号に入る最も適切な金額をそれぞれの解答群の中から１つ選べ。同じものを何度選んでもよい。解答欄は、 ア ～ シ 。

【資料Ⅰ】決算整理前の総勘定元帳残高　（単位：円）

現　　金	*100,000*	当座預金	*2,480,000*	売掛金	*2,500,000*
貸倒引当金	*10,000*	有価証券	*3,300,000*	繰越商品	*1,800,000*
備　　品	*600,000*	建　　物	*3,600,000*	土　　地	*4,000,000*
支払手形	*1,000,000*	買掛金	*1,200,000*	前受金	*350,000*
借入金	*4,000,000*	資本金	*7,540,000*	引出金	*100,000*
売　　上	*14,400,000*	受取手数料	*300,000*	受取地代	*1,500,000*
仕　　入	*7,600,000*	給　　料	*3,000,000*	発送費	*600,000*
水道光熱費	*200,000*	旅費交通費	*150,000*	保険料	*60,000*
消耗品費	*100,000*	租税公課	*50,000*	支払利息	*40,000*
現金過不足	*20,000*（借方残高）				

【資料Ⅱ】決算整理事項（Ａ～Ｊ）

Ａ．期末商品の実地棚卸高は、次のとおりである。

商品名	数量	単価（原価）	金額
① BCF	1,000 個	*@¥500-*	*¥500,000*
② MOZ	300 個	*@¥1,200-*	*¥360,000*
③ NTQ	300 個	*@¥1,300-*	*¥390,000*
④ SMR	100 個	*@¥1,500-*	*¥150,000*
⑤ ARP	50 個	*@¥2,000-*	*¥100,000*
⑥ MKY	40 個	*@¥2,500-*	*¥100,000*

B．売掛金の期末残高に対して、前期に２％の貸倒引当金を設定しており、貸倒引当金の期末残高は、*¥10,000* である。当期については貸倒引当金を設定しないため、*¥10,000* を戻し入れることにした。

C．備品と建物について、定額法によって取得原価から直接減額する方法を採用しており、１年分の減価償却費を計上する。

		取得原価	耐用年数	残存価額
①	備　品	*¥1,000,000*	10 年	ゼロ
②	建　物	*¥5,000,000*	25 年	ゼロ

D．有価証券 *¥3,300,000* は、売買目的で保有している次の株式の帳簿価額であり、これを時価によって評価替えする。

	銘　　柄	株数	時　価	帳簿価額
①	安来商事株式会社	20 株	*@¥120,000*	*@¥100,000*
②	音戸物流株式会社	10 株	*@¥140,000*	*@¥130,000*

E．受取地代 *¥1,500,000* は、15 か月分であり、３か月分は翌年度分であり、前受額を繰り延べる。

F．保険料 *¥60,000* は、本年１月に向こう２年分を支払ったものであり、１年分を次期に繰り延べる。

G．消耗品費 *¥100,000* のうち、*¥40,000* は未使用であり、これを次期に繰り延べる。

H．支払利息 *¥40,000* については、３月１日に借り入れた借入金 *¥4,000,000* についての利息の一部であるが、年利 3.0％で借り入れており、決算の時点で６か月分の未払額がある。

I．引出金 *¥100,000* は整理する。

J．現金過不足 *¥20,000*（借方残高）について、原因を調査した結果、従業員の旅費交通費 *¥20,000* を現金で支払っていたが、これを記帳していなかったことが分かった。

損益計算書

安佐南商店　令和〇年１月１日から令和〇年 12 月 31 日まで　　単位：円

費用	金額	収益	金額
売上原価	ア	売上高	
売上総利益			
給料		売上総利益	イ
発送費		受取手数料	
水道光熱費		受取地代	
旅費交通費		有価証券評価益	ウ
保険料	エ	貸倒引当金戻入	オ
消耗品費	カ		
租税公課			
減価償却費			
支払利息			
当期純利益			

問１　損益計算書の ア ～ ウ に入る最も適切な金額を、次の解答群の中から１つずつ選びなさい。

ア ～ ウ の解答群

⓪ 110,000	① 500,000	② 600,000
③ 1,200,000	④ 1,850,000	⑤ 1,950,000
⑥ 2,100,000	⑦ 6,600,000	⑧ 7,800,000
⑨ 8,000,000		

問２　損益計算書の［エ］～［カ］に入る最も適切な金額を、次の解答群の中から１つずつ選びなさい。

［エ］～［カ］の解答群

⓪　10,000	①　20,000	②　30,000
③　40,000	④　45,000	⑤　50,000
⑥　55,000	⑦　60,000	⑧　65,000
⑨　70,000		

貸借対照表

安佐南商店　　令和〇年 12 月 31 日　　単位：円

資産	金額	負債および純資産	金額
現金		支払手形	
当座預金		買掛金	
売掛金		前受金	
有価証券	［キ］	借入金	
商品	［ク］	前受地代	
消耗品		未払利息	［ケ］
前払保険料		資本金	［コ］
備品		当期純利益	［サ］
建物	［シ］		
土地			

問３　貸借対照表の キ ～ ケ に入る最も適切な金額を、次の解答群の中から１つずつ選びなさい。

キ ～ ケ の解答群

⓪ 60,000	① 100,000	② 200,000
③ 300,000	④ 1,600,000	⑤ 1,950,000
⑥ 2,100,000	⑦ 3,300,000	⑧ 3,800,000
⑨ 6,000,000		

問４　貸借対照表の コ ～ シ に入る最も適切な金額を、次の解答群の中から１つずつ選びなさい。

コ ～ シ の解答群

⓪ 3,200,000	① 3,400,000	② 3,500,000
③ 4,000,000	④ 4,100,000	⑤ 4,400,000
⑥ 4,500,000	⑦ 7,340,000	⑧ 7,440,000
⑨ 7,540,000		

〔簿記の問題は以上です。〕

令和５年度　数学Ⅰ・Ａ入試問題（１日目）

第１問　次の各問の空欄に当てはまる最も適切な数値を記入せよ。

問１　$\dfrac{\sqrt{11}+\sqrt{7}}{\sqrt{11}-\sqrt{7}}-\dfrac{\sqrt{11}-\sqrt{7}}{\sqrt{11}+\sqrt{7}}$ を計算すると $\sqrt{\boxed{\text{アイ}}}$ となる。

問２　$11010_{(2)}+1111_{(2)}$ の計算の結果を 10 進法で表すと $\boxed{\text{ウエ}}$ となる。

問３　629 と 481 の最大公約数は $\boxed{\text{オカ}}$ である。

問４　$3x^2+8xy+4y^2+4y-3$ を因数分解すると

$\left(x+\boxed{\text{キ}}\,y-\boxed{\text{ク}}\right)\left(\boxed{\text{ケ}}\,x+\boxed{\text{コ}}\,y+\boxed{\text{サ}}\right)$ となる。

問５　$-2<x<7$，$3<y<8$ のとき，$7x-5y+1$ の取りうる値の範囲は，

$-\boxed{\text{シス}}<7x-5y+1<\boxed{\text{セソ}}$ である。

第２問　白玉８個，赤玉４個が入った袋Ａと，白玉４個，赤玉６個が入った袋Ｂがある。このとき，次の各問の空欄に当てはまる最も適切な数値を記入せよ。

問１　袋Ａから３個の玉を同時に取り出すとき，３個とも白玉が出る確率は $\dfrac{\boxed{\text{アイ}}}{\boxed{\text{ウエ}}}$ である。

問２　袋Ａから３個の玉を同時に取り出すとき，白玉１個と赤玉２個が出る確率は $\dfrac{\boxed{\text{オカ}}}{\boxed{\text{キク}}}$ である。

問３　袋Ａから１個の玉を取り出し，色を調べてから元に戻す。この試行を３回行ったとき，少なくとも１回は白玉が出る確率は $\dfrac{\boxed{\text{ケコ}}}{\boxed{\text{サシ}}}$ である。

問４　袋Ａ，袋Ｂからそれぞれ１個ずつ玉を取り出すとき，取り出した２個の玉が同じ色である確率は $\dfrac{\boxed{\text{ス}}}{\boxed{\text{セソ}}}$ である。

問５　袋Ａから１個の玉を取り出して袋Ｂに入れ，よくかきまぜたのち，袋Ｂから１個の玉を取り出して袋Ａに入れる。このとき，袋Ａの白玉の個数が初めと変わらない確率は $\dfrac{\boxed{\text{タチ}}}{\boxed{\text{ツテ}}}$ である。

第３問　k は定数とする。2 次関数 $y=x^2+4kx+3k$ の最小値を m とする。このとき，次の各問の空欄に当てはまる最も適切な数値を記入せよ。

問１　この 2 次関数のグラフが点 $(-1,\ 3)$ を通るとき，

$k=-\boxed{\text{ア}}$，$m=-\boxed{\text{イウ}}$ となる。

問２　この 2 次関数のグラフが x 軸と共有点をもたないとき，

$\boxed{\text{エ}}<k<\dfrac{\boxed{\text{オ}}}{\boxed{\text{カ}}}$ となる。

問３　m を k の式で表すと，$m=-\boxed{\text{キ}}\,k^2+\boxed{\text{ク}}\,k$ となる。

問４　$k=\dfrac{\boxed{\text{ケ}}}{\boxed{\text{コ}}}$ のとき，m は最大値 $\dfrac{\boxed{\text{サ}}}{\boxed{\text{シス}}}$ をとる。

第４問　次の各問の空欄に当てはまる最も適切な数値を記入せよ。

問１　$0^\circ < \theta < 180^\circ$ とする。$\cos\theta = -\dfrac{3}{4}$ のとき，次の問に答えよ。

(1)　$\tan\theta = -\dfrac{\sqrt{\boxed{\text{ア}}}}{\boxed{\text{イ}}}$ である。

(2)　$(\sin\theta + \cos\theta)^2 + (\sin\theta - \cos\theta)^2 = \boxed{\text{ウ}}$ である。

問２　直線 $y = \dfrac{1}{\sqrt{3}}x$ と直線 $x = 3$ の交点を A，直線 $y = -x$ と直線 $x = 3$ の交点を B，原点を O とする。このとき，次の問に答えよ。

(1)　$\angle\mathrm{OAB} = \boxed{\text{エオ}}^\circ$，$\mathrm{OA} = \boxed{\text{カ}}\sqrt{\boxed{\text{キ}}}$ である。

(2)　$\triangle\mathrm{OAB}$ の外接円の半径は $\sqrt{\boxed{\text{ク}}}$ である。

(3)　$\angle\mathrm{AOB} = \theta$ とするとき，$\cos\theta = \dfrac{\sqrt{\boxed{\text{ケ}}} - \sqrt{\boxed{\text{コ}}}}{\boxed{\text{サ}}}$ である。

〔数学の問題は以上です。〕